SDLB TUNARUNGU PANGUDI LUHUR

Jl. Pesanggrahan 125, Kembangan,

Jakarta Barat 11610, Telp. (021) 5804223

PENILAIAN AKHIR SEMESTER
TAHUN PELAJARAN 2021-2022

Mata Pelajaran : Pendidikan Agama Katolik **Kelas : D 1B**

Hari, Tanggal : Selasa, 7 Desember 2021 **Waktu : 09.40 – 11.10**

= = = =

4. Gambar yang menunjukkan **perbuatan buruk** menggunakan **mata** adalah ….

A.

B.

C.

5. Gambar yang menunjukkan **kebersihan rambut** adalah ….

A.

B.

C.

6. Kita wajib bersyukur kepada _____ karena memiliki anggota tubuh lengkap.
7. Kami harus _____ anggota tubuh dengan baik dan benar.

8. **Perhatikan gambar berikut!**

Gambar tersebut menunjukkan perbuatan baik menggunakan _____

LIVEWORKSHEETS

Soal No 9 – 13 pasangkan nama dengan gambar anggota tubuh berikut!

9. pundak

10. siku

11. dagu

12. jari tangan

A. 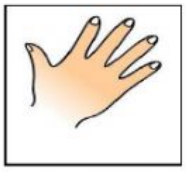

B.

C. 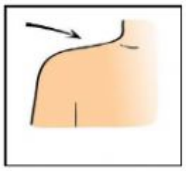

D. 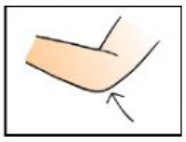

KD 3.2 Mengenal anggota keluarga dan ciri-ciri fisik anggota keluarga.

13. Gambar yang menunjukkan anggota keluarga inti adalah ….

A.

B.

C.

14. Orang yang melahirkan kita adalah ….

A. mama

B. nenek

C. bibi

LIVEWORKSHEETS

15. Adik laki-laki mama atau papa disebut ….
    A. kakek
    B. paman
    C. papa
16. Orangtua perempuan dari mama dan papa disebut ….
    A. nenek
    B. kakek
    C. bibi
17. Anak yang tidak memiliki orangtua disebut
18. Keluarga yang terdiri dari mama, papa, anak, paman, bibi, kakek, dan nenek disebut keluarga
19. Papa mencari nafkah untuk
20. Apa yang dimaksud dengan keluarga inti?

KD 3.3 Mengenal nama dan fungsi ruangan rumah.

21. **Perhatikan gambar berikut**!

Gambar tersebut digunakan untuk ….
    A. istirahat
    B. memasak
    C. menerima tamu

22. Tempat untuk melindungi anggota keluarga dari hujan dan panas adalah ….
    A. sekolah
    B. rumah
    C. hotel
23. Gambar berikut yang digunakan untuk memasak adalah ….

A.

B.

LIVEWORKSHEETS

24. **Perhatikan gambar berikut!**



Ruang pada gambar tersebut digunakan untuk

25. Ruang yang digunakan untuk menyimpan barang-barang yang tidak dipakai lagi disebut

26. Perhatikan gambar berikut!

Ruang pada gambar tersebut disebut

27. Bagaimana menjaga rumah tetap sehat?

KD 3.4 Mengenal nama dan fungsi ruangan yang ada di sekolah.

28. Gambar berikut tempat untuk membeli alat tulis dan seragam adalah ….

A.

B.

C.

LIVEWORKSHEETS

29. **Perhatikan gambar berikut!**



Tempat pada gambar tersebut digunakan siswa untuk ….

A. membeli makanan

B. membaca buku

C. mendapat pelayanan kesehatan

30. **Perhatikan gambar berikut!**

Anak-anak bermain basket di _____ sekolah.

31. Di sekolah Salma dan Adrien jajan di _____

32. Apa nama ruangan yang digunakan untuk memberikan pelayanan kesehatan?

KD 3.5 Mengenal diri dan temannya sebagai anugerah Allah.

33. **Perhatikan gambar berikut!**

Gambar tersebut salah satu ciri temanku yaitu berbadan ….

A. kurus

B. gemuk

C. langsing

34. **Perhatikan gambar berikut!**

Gambar tersebut salah satu ciri temanku yaitu berambut ….

A. lurus

B. keriting

C. ikal

35. Walaupun memiliki fisik berbeda-beda, kita harus saling _____

36. **Perhatikan gambar berikut!**

Gambar tersebut salah satu ciri temanku yaitu berkulit

_____

LIVEWORKSHEETS

KD 3.6 Mengenal Allah sebagai pencipta yang Maha Baik.

37. Manusia ciptaan Tuhan yang pertama laki-laki, diberi nama ….

    A. Hawa B. Abraham C. Adam

38. Pencipta alam semesta adalah ….

    A. Tuhan B. guru C. orang tua

39. Tuhan menciptakan manusia pada hari ke ….

    A. 4 B. 5 C. 6

40. Ciptaan Allah menurut gambar dan rupa Tuhan adalah ….

    A. manusia B. tumbuhan C. hewan

41. Sebelum Allah menciptakan alam semesta keadaan bumi masih

42. Allah menempatkan Adam dan Hawa di

43. Allah menciptakan Hawa dari Adam.

44. Berapa lama Allah menciptakan alam semesta?

45. Apa yang dilakukan Allah pada hari ke – 7?

Selamat Mengerjakan

Jakarta, 16 November 2021

Mengetahui,

Kepala SDLB B Pangudi Luhur

Guru Kelas D 1B

Drs. Bonaventura Subagyo

Marintan Simamora, S.Pd

LIVEWORKSHEETS