PEMERINTAH KOTA BANDUNG
DINAS PENDIDIKAN
SD NEGERI 153 TARUNA KARYA

Jl. Galumpit No. 2 Kelurahan Palasari Kecamatan Cibiru Kota Bandung

Tulis huruf a,b,c,atau d yang merupakan jawaban benar pada kotak yang disediakan !

1. Nilai bilangan bulat pada garis bilangan semakin ke kiri nilainya semakin ...
   a. rendah
   b. kecil
   c. besar
   d. kurang
2. Suhu sebuah kota di Eropa 3º C di bawah nol, suhu di kota Jakarta 29º . Selisih kedua kota adalah…
   a. 26º C
   b. 30º C
   c. 31º C
   d. 32º C
3. Bilangan bulat positif terletak disebelah... angka nol (0)
   a. kanan
   b. kiri
   c. atas
   d. tengah
4. Tujuh langkah ke kanan dari titik -2 pada garis bilangan adalah titik ....
   a. -7
   b. .-5
   b. 3
   c. 5
5. Tanda yang tepat untuk melengkapi -11 ... -6 adalah…
   a. <
   b. .>
   c. =
   d. ≤
6. Diketahui 256 X 43 = 43 X n, maka nilai n adalah …
   a. – 256
   b. – 43
   c. 43
   d. 256
7. Hasil dari 13 + (-8) x 2 = …..
   a. 10
   b. 29
   c. -3
   d. -1
8. Hasil dari 26 + (-19) - (-42) : 7 + (-12) =
   a. 1
   b. -5
   c. 13
   d. -17
9. Hasil dari 625 + 25 : 5 - 199 = ….
   a. 456
   b. 431
   c. 413
   d. 313
10. Bagian tembereng lingkaran ditunjukkan oleh huruf .
    a. AB
    b. N
    c. OB
    d. M

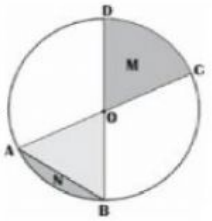

11. Daerah M pada gambar di atas (gambar nomor 10) dinamakan ....
    a. apotema
    b. juring
    c. tembereng
    d. busur

LIVEWORKSHEETS

12. Daerah lingkaran yang dibatasi oleh busur lingkaran dan dua buah jari-jari lingkaran yang melalui ujung busur lingkaran disebut…
    a. Jari-jari
    b. diameter
    c. juring
    d. tembereng
13. Daerah lingkaran yang dibatasi oleh busur lingkaran dan tali busur yang melalui kedua ujung busur lingkaran adalah…
    a. Jari-jari
    b. diameter
    c. juring
    d. tembereng
14. Sebuah lingkaran dengan panjang jari jari 7 cm. Maka keliling lingkaran tersebut adalah …. cm.
    a. 22 cm
    b. 44 cm
    c. 88 cm
    d. 154 cm
15. Luas permukaan bangun ruang berikut adalah....cm^2.

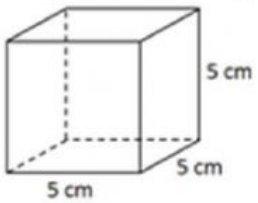

    a. 125
    b. 150
    c. 200
    d. 250

16. Volume bangun ruang berikut adalah . . . cm^3

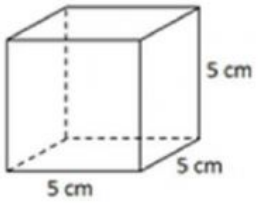

    a. 125
    b. 150
    c. 200
    d. 250

17. Luas permukaan bangun berikut adalah....

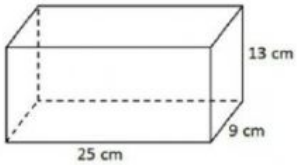

    a. 1.334 cm^2
    b. 1.644 cm^2
    c. 2.324 cm^2
    d. 2.334 cm^2

18. Sebuah kemasan susu berbentuk balok dengan panjang 15 cm, lebar 8 cm dan tinggi 11 cm. Maka volume kemasan tersebut adalah . . . cm^3
    a. 1.134
    b. 1.210
    c. 1.320
    d. 2.700
19. Volume suatu kolam ikan berbentuk kubus adalah 64 m^3. Panjang sisi kolam tersebut adalah ….. meter
    a. 4
    b. 6
    c. 7
    d. 8
20. Sebuah bangun kubus memiliki volume 729 cm^3. Panjang sisi kubus tersebut adalah ….
    a. 7 cm
    b. 8 cm
    c. 9 cm
    d. 11 cm
21. Sebuah tutup gelas berbentuk lingkaran dengan panjang jari jari 7 cm. Maka luas tutup gelas tersebut adalah ….
    a. 22 cm^2
    b. 44 cm^2
    c. 154 cm^2
    d. 616 cm^2

LIVEWORKSHEETS

22. Lihatlah gambar lingkaran di bawah ini!

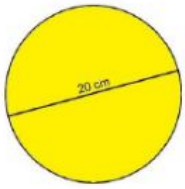

Keliling bangun lingkaran di atas adalah ….
a. 3,14 cm
b. 6,28 cm
c. 31,4 cm
d. 62,8 cm

23. Tabung adalah bangun ruang yang terbentuk dari 3 bidang sisi yaitu ....
a. 2 berbentuk persegi panjang dan 1 berbentuk lingkaran
b. 1 berbentuk persegi panjang dan 2 berbentuk lingkaran
c. 2 berbentuk persegi dan 1 berbentuk lingkaran
d. 1 berbentuk persegi panjang dan 2 berbentuk segitiga

24. Volume tabung dengan ukuran seperti tampak pada gambar adalah .... cm^3

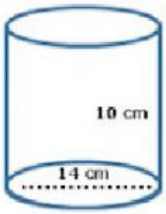

a. 1.510
b. 1.520
c. 1.530
d. 1.540

25. Sebuah kaleng roti berbentuk tabung berdiameter 28 cm dan tingginya 10 cm. Volume kaleng roti tersebut adalah .... cm^3
a. 6.160
b. 6.180
c. 6.210
d. 6.260

Isilah

26. Ibu membeli 5 kg beras, 3 kg telur dan 1 kg gula. Jika harga 1 kg beras Rp. 10.000,00, harga 1 kg telur Rp. 22.500,00 dan harga 1 kg gula Rp. 12.500,00, maka jumlah uang yang harus dibayarkan ibu adalah …

27. Bilangan bulat negatif terletak disebelah ... angka nol (0)

28. Hasil dari -24 : (-4) = ...

29. Hasil dari 6 x (-9) + (-23) = ...

30. Nilai bilangan bulat pada garis bilangan semakin ke kiri nilainya semakin ...

oOo

LIVEWORKSHEETS