SDLB TUNARUNGU PANGUDI LUHUR

Jl. Pesanggrahan 125, Kembangan,
Jakarta Barat 11610 Telp. 021-5804223

LATIHAN PAS I

TAHUN PELAJARAN 2021-2022

==========

Mata Pelajaran : IPS **Nama/ Kelas: / 3B**
Materi : Aneka Pekerjaan **Hari, tanggal: Selasa, 23 November 2021**
Rambu Lalu-lintas
Denah

==========

I. Pilihlah huruf A, B atau C di depan jawaban yang benar!

II. Isilah titik-titik berikut dengan jawaban singkat yang benar!

III. Kerjakan sesuai perintah!

KD. 3.1 Mengidentifikasi aneka pekerjaan manusia.

1. Kebutuhan hidup manusia meliputi kebutuhan pokok dan kebutuhan ….
   A. tambahan
   B. bersama
   C. utama

2. Yang **bukan** alasan orang bekerja adalah ….
   A. memenuhi kebutuhan hidup
   B. mencari uang
   C. mencari masalah

3. Contoh kebutuhan primer adalah ….
   A. makanan
   B. laptop
   C. motor

4. Contoh kebutuhan sekunder adalah ….
   A. rumah

LIVEWORKSHEETS

B. pakaian

C. televisi

5. Perhatikan gambar berikut!

Pekerjaan orang seperti pada gambar tersebut adalah ….

A. juru masak

B. juru kunci

C. juru lukis

6. Perhatikan gambar!

Pekerjaan orang tersebut adalah ….

A. pelukis

B. peternak

C. penjahit

7. Orang yang mengemudikan kereta api disebut ….

A. nahkoda

B. masinis

C. pilot

8. Orang yang bertugas melayani dan melindungi masyarakat disebut ….

A. nahkoda

B. polisi

C. pelayan toko

9. Tempat dokter dan perawat bekerja adalah ….

A.

LIVEWORKSHEETS

B.

C.

10. Tukang cukur rambut bekerja di ….

A.

B.

C.

11. Jenis pekerjaan ada 2 yaitu pekerjaan di bidang jasa dan pekerjaan yang menghasilkan ….

12. Pekerjaan orang seperti pada gambar tersebut adalah ….

13. Guru adalah contoh pekerjaan yang memerlukan ….

14. Contoh barang yang dihasilkan oleh peternak sapi yaitu ….

15. Supir bis Trans Jakarta merupakan salah satu contoh pekerjaan yang memerlukan ….

16. Tuliskan 2 alasan orang harus bekerja!

    Jawab:

    ……

LIVEWORKSHEETS

.....

17. Tuliskan 5 pekerjaan yang memerlukan jasa!

    Jawab:

    .....

    .....

18. Tuliskan 5 pekerjaan yang menghasilkan barang!

    Jawab:

    .....

    .....

KD. 3.2 Mengenal rambu-rambu lalu lintas.

19. Kepanjangan APILL adalah ….

    A. Alat Pemberian Ikatan Lalu Lintas

    B. Alat Pemberi Isyarat Lalu Lintas

    C. Alat Pemancar Isyarat Lalu Lintas

20. Berikut adalah gambar ….

    A. lampu Isyarat Pejalan Kaki

    B. lampu merah, lampu hijau

    C. lampu APIIL

21. Berikut adalah gambar ….

    A. lampu Isyarat Pejalan Kaki

    B. lampu merah, lampu hijau

    C. lampu APILL

22. Rambu berikut artinya ….

    A. dilarang putar balik

    B. dilarang berhenti

    C. dilarang parkir sembarangan

LIVEWORKSHEETS

23. Rambu berikut artinya ….

A. dilarang putar balik

B. dilarang berhenti

C. dilarang parkir sembarangan

24. Lampu Isyarat Pejalan Kaki berfungsi untuk membantu … menyeberang jalan.

A. kendaraan bermotor

B. pejalan kaki

C. kendaraan mobil

25. Yang **bukan** fungsi dari Alat Pemberi Isyarat Lalu Lintas (Lampu APPIL) yaitu ….

A. mengatur kendaraan bermotor (mobil, motor, truk)

B. menjaga polisi

C. mengurangi kecelakaan kendaraan bermotor

26. Tempat untuk menyeberang pejalan kaki dinamakan ….

27. Lampu Isyarat Pejalan Kaki berfungsi membantu pejalan kaki untuk ….

28. Lampu APILL berwarna merah berarti kendaraan ….

29. Lampu APILL berwarna kuning berarti kendaraan ….

30. Lampu APILL berwarna hijau berarti kendaraan ….

31. Tuliskan kegunaan *zebra-cross*!

Jawab:

……

……

32. Sebutkan 2 fungsi lampu APILL!

Jawab:

……

……

……

KD. 3.4 Mengenal denah lingkungan rumah dan denah lingkungan sekolah.

33. Perhatikan gambar berikut!

LIVEWORKSHEETS

Gambar tersebut adalah ….

A. atlas

B. denah

C. globe

34. Yang **bukan** gambar denah yaitu ….

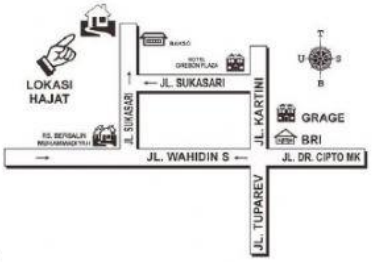

A.

B.

C.

35. Berikut ini yang **bukan** hal-hal yang ada dalam denah adalah ….

A. nama pembuat denah

B. judul denah

C. lokasi yang dituju

36. Perhatikan lambang berikut!

LIVEWORKSHEETS

Lambang tersebut dinamakan ….

A. bintang kejora

B. bujur angin

C. arah mata angin

Perhatikan denah berikut untuk mengerjakan nomor 37 sampai nomor 40!

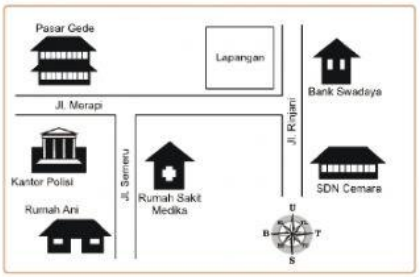

37. SDN Cemara ada di jalan… dan bersebelahan dengan ….

    A. Rinjani, Bank Swadaya

    B. Semeru, Lapangan

    C. Rinjani, Lapangan

38. Lokasi Pasar Gede ada di Jalan … dan Pasar Gede bersebrangan dengan ….

    A. Merapi, Lapangan

    B. Merapi, Kantor Polisi

    C. Semeru, Kantor Polisi

39. Rumah Ani ada di jalan ….

40. Rumah Ani ada di dekat Kantor ….

41. Denah adalah ….

    Perhatikan denah berikut untuk menjawab soal nomor 42 sampai nomor 45!

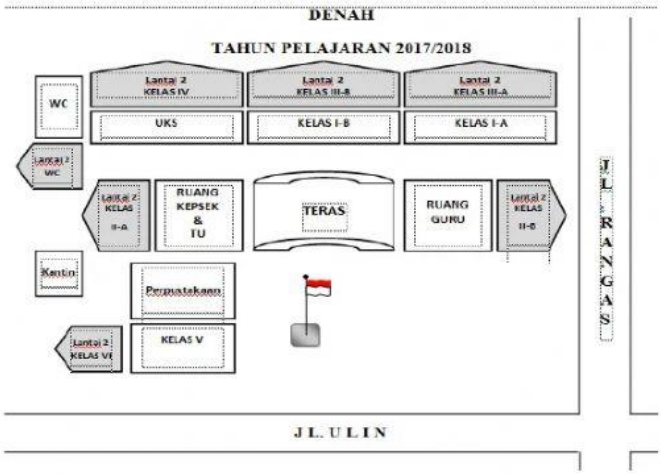

42. Teras berada di lantai 1. Teras terletak di antara ruang kepala sekolah, ruang TU

LIVEWORKSHEETS

dan ruang ….

43. Ruang yang berada di antara ruang kepala sekolah dan ruang kelas V adalah ….
44. Kelas III B ada di lantai 2, kelas III B terletak di antara ruang … dan ….
45. Ruangan yang digunakan untuk anak-anak jajan atau membeli makanan dan minuman saat jam istirahat adalah ….

LIVEWORKSHEETS