Nombre: _____ Fecha: _____ Grupo: _____

Redondea a la decena más cercana.

Sigue el ejemplo: 5 7

Subraya la decena y circula la unidad.

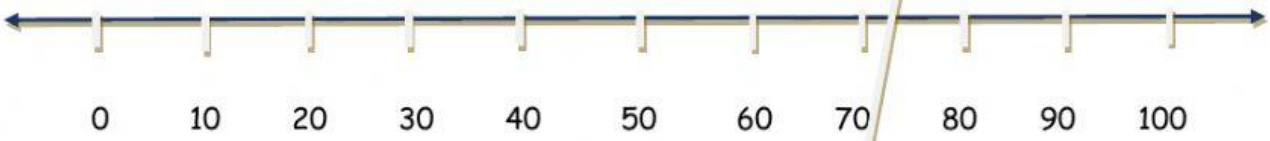

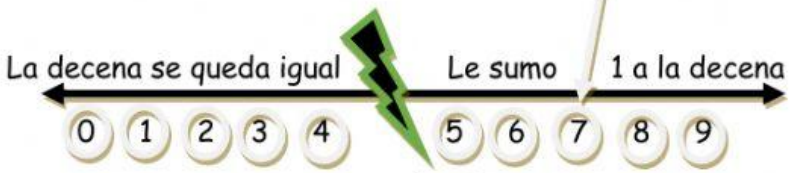

5 7 se encuentra entre 50 y 60. Pero está más cerca de 60 que de 50.

Vamos a practicar:

1. **3 4 -___ ___**
2. **7 5 - ___ ___**
3. **8 9 - ___ ___**
4. **2 3 - ___ ___**
5. **6 8 - ___ ___**
6. **5 2 - ___ ___**
7. **9 2 - ___ ___**
8. **1 5 - ___ ___**

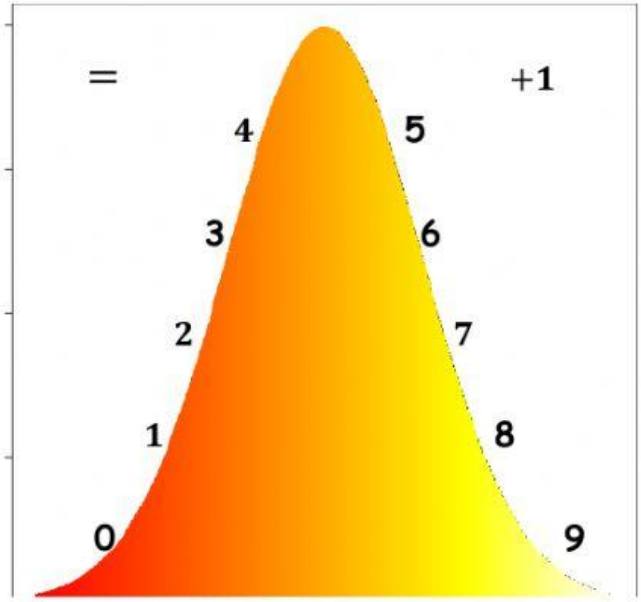

Recuerda que todos los cambios se hacen en el dígito <u>subrayado</u>. O se queda igual o se le suma 1.

LIVEWORKSHEETS