PURA LÓGICA

1. Con todas las fichas que te mostramos deberás armar una igualdad matemática correcta.



Solución.....

2. Enigma de cálculo.

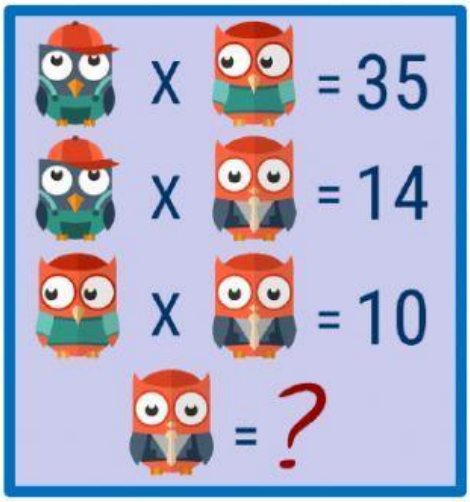

Retos seleccionados de www.elclubdelingenio.com

LIVEWORKSHEETS

3. ¿Cuál de las 4 figuras difiere de las otras tres?

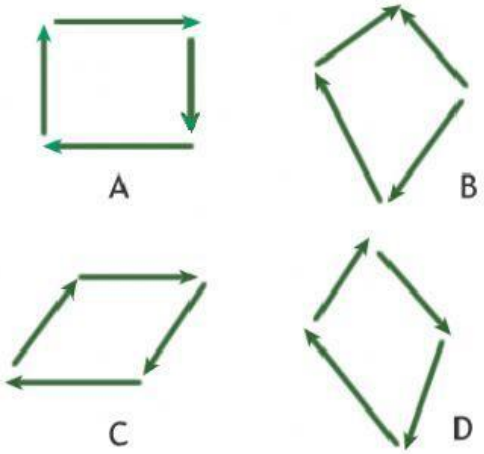

Solución .....

4. ¿Cuál es la figura que no cumple con la misma lógica de construcción?

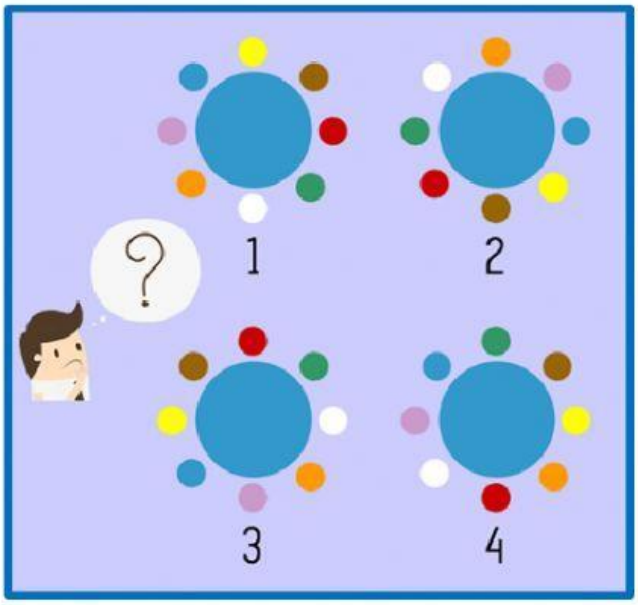

Solución .....

LIVEWORKSHEETS