5° BÁSICOS 2021

Escuela C. Juan Ladrillero
Puerto Natales

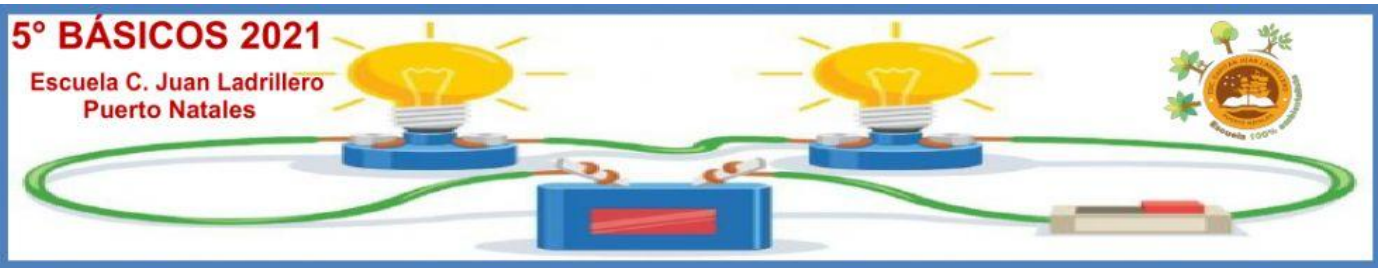

CIRCUITOS ELECTRICOS

1.- Observa el circuito eléctrico. Luego, arrastra el nombre de los componentes del circuito donde corresponda.

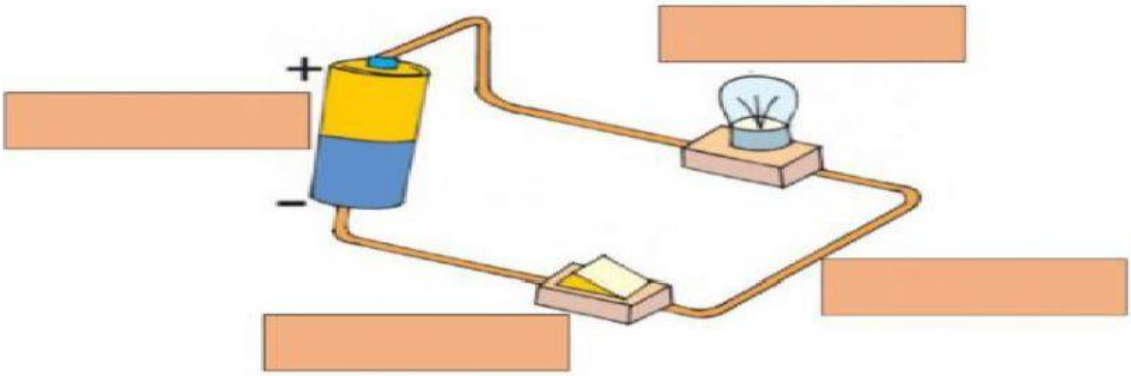

Receptor

Interruptor

Conector

Fuente de energía

2.- Une con una línea cada componente del circuito con la función que realiza.







Une los componentes del circuito y permite el flujo de la corriente eléctrica.

Permite o bloquea el paso de la corriente eléctrica.

Transforma la energía eléctrica en energía lumínica

Proporciona la energía necesaria al circuito.

Escuela 100% Ambientalista

Profesora Gloria Ruiz Bórquez

LIVEWORKSHEETS