TRƯỜNG MẦM NON TRÀNG AN

KHỐI MGL
NĂM HỌC 2021-2022

BÀI TẬP TUẦN 3 THÁNG 11




BÉ LÀM QUEN VỚI TOÁN

Bé hãy tìm nhóm đối tượng có số lượng nhiều nhất và tích vào ô cho đúng nhé!





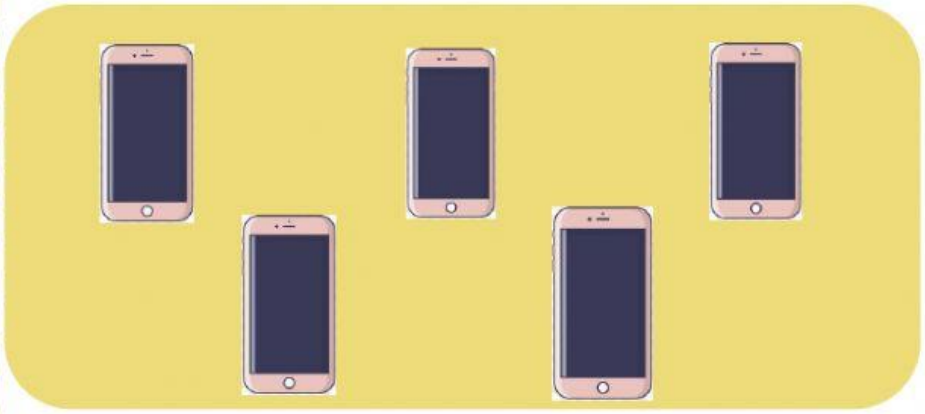



LIVEWORKSHEETS




BÉ LÀM QUEN VỚI TOÁN

Bé hãy tìm nhóm đối tượng có số lượng ít hơn và tích vào ô cho đúng nhé!








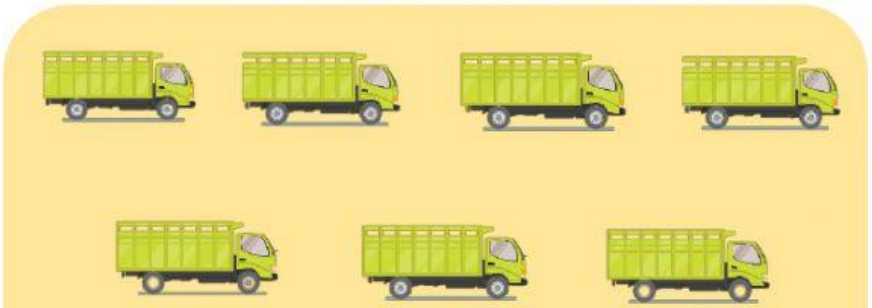
LIVEWORKSHEETS



BÉ LÀM QUEN VỚI TOÁN

Bé hãy tìm nhóm đối tượng có số lượng ít nhất và tích vào ô cho đúng nhé!







LIVEWORKSHEETS



BÉ LÀM QUEN VỚI TOÁN

Bé hãy chọn số con gấu và con sư tử thêm vào 2 nhóm con gấu và con sư tử để bằng nhóm con thỏ nhé!





