LOS SERES VIVOS. Partes de la planta y crecimiento.

1.Ordena del 1 al 5.

2.Une con flechas cada nombre con la parte correspondiente en el dibujo:

3.Observa y une según el tamaño:

ÁRBOL

ARBUSTO

HIERBA



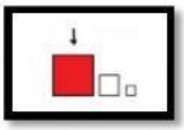

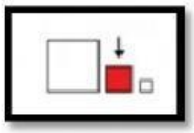

LIVEWORKSHEETS