Instructions : Observe les pyramides et les prismes. Relie-les à leur nom et enfin remplis le tableau

Pyramides/Prismes
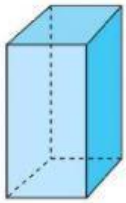
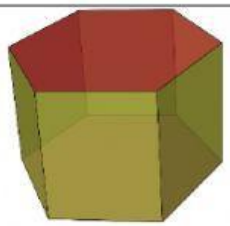
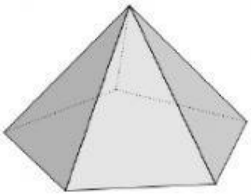
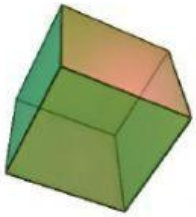

Nom du polyèdre	Nombre de faces au total	Nombre de sommets	Nombre d'arrêtes
La pyramide à Base pentagonale			
Le cube			
La pyramide à base triangulaire			
Le prisme à base rectangulaire			
Le prisme à base hexagonale			

LIVEWORKSHEETS