	UNIDAD EDUCATIVA MUNICIPAL **"ANTONIO JOSÉ DE SUCRE"** **TRABAJO SOBRE LAS PARTES DE LA TIERRA**	**Año lectivo** **2021-2022**

1. Une con una línea según corresponde.

Atmósfera	Es la capa de gases que rodea la tierra
Hidrósfera	Capa que contiene toda el agua de nuestro planeta
Geósfera	Es la parte sólida de nuestro planeta

2. Ubica las partes externas de la tierra según corresponde.

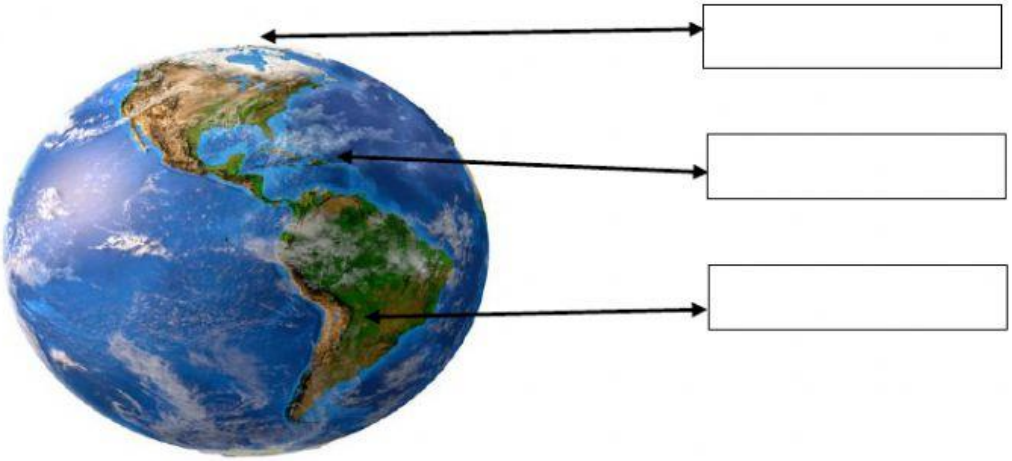

Hidrósfera | Atmosfera | Geósfera

3. Une con una línea según corresponde.

Trópico de Cáncer

Hemisferio norte

Hemisferio sur

Polo sur

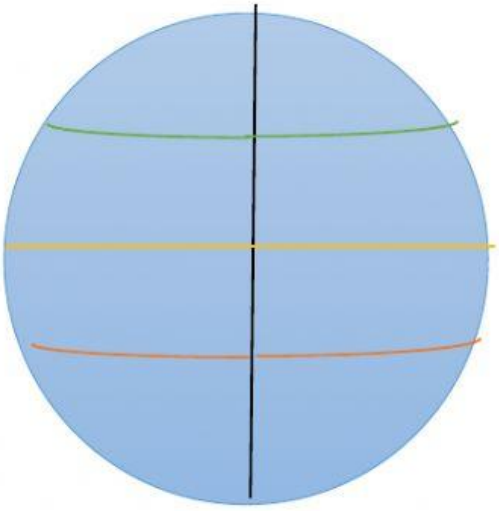

Polo norte

Meridiano de Greenwich

Línea Ecuatorial

Trópico de Capricornio

LIVEWORKSHEETS

	UNIDAD EDUCATIVA MUNICIPAL **"ANTONIO JOSÉ DE SUCRE"** **TRABAJO SOBRE LAS PARTES DE LA TIERRA**	**Año lectivo** **2021-2022**

4. Selecciona la respuesta correcta.

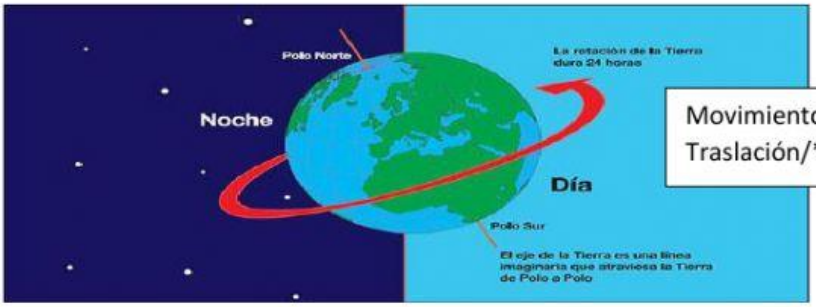

Movimiento de Traslación/*Movimiento de

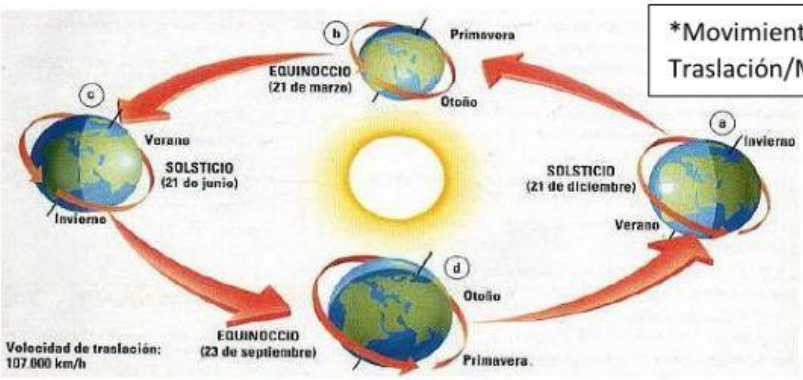

*Movimiento de Traslación/Movimiento de Rotación

5. Complete el cuadro con las palabras correctas.

La _____ . Es la parte _____ de nuestro planeta.

está compuesta por materiales que se distribuyen en tres capas concéntricas: la atmósfera, el manto y el núcleo.

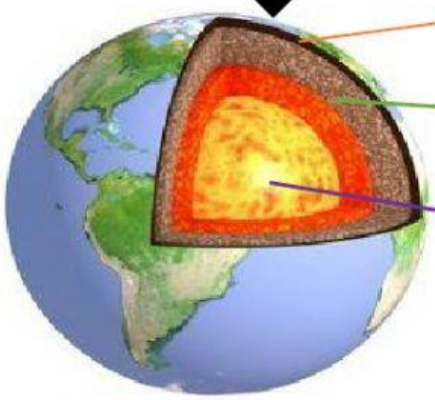

_____

_____

_____

LIVEWORKSHEETS

	UNIDAD EDUCATIVA MUNICIPAL "ANTONIO JOSÉ DE SUCRE" **TRABAJO SOBRE LAS PARTES DE LA TIERRA**	**Año lectivo 2021-2022**

6. Completa el siguiente mapa mental con las palabras correctas.

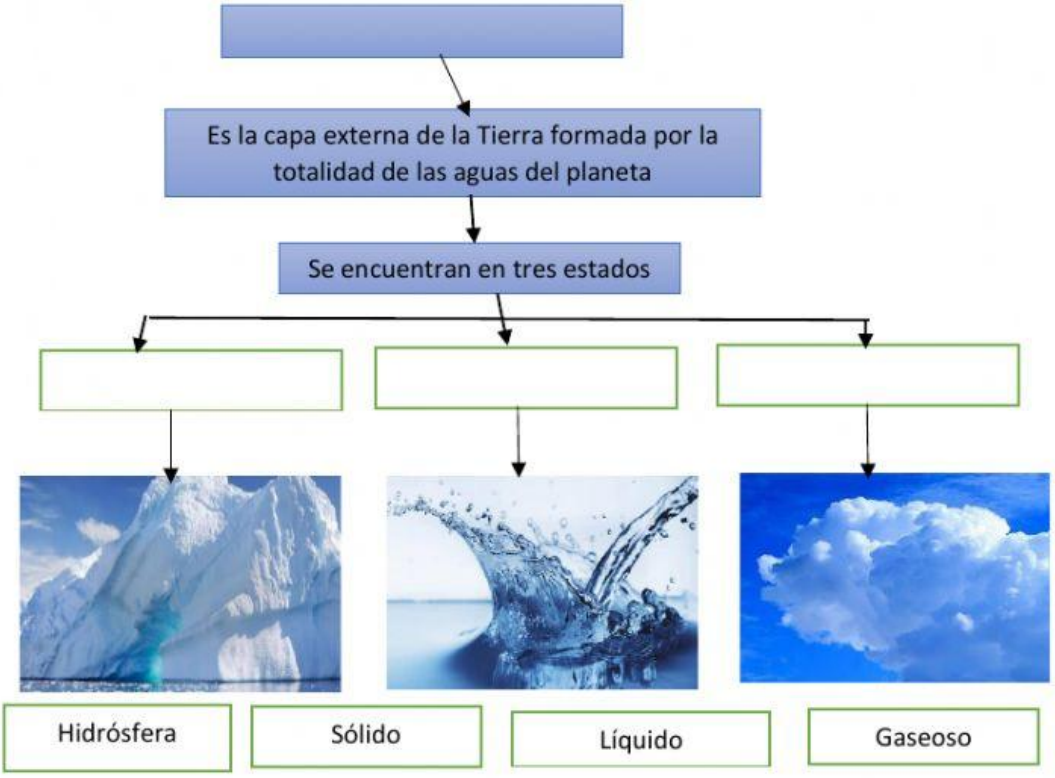

7. Ubica según corresponde.

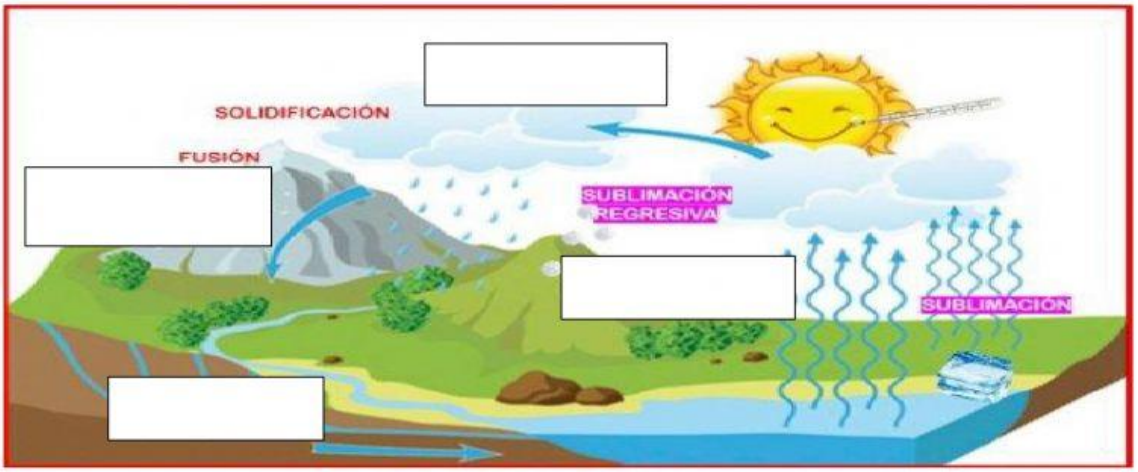

Filtración | Precipitación | Condensación | Evaporización

LIVEWORKSHEETS

	UNIDAD EDUCATIVA MUNICIPAL "ANTONIO JOSÉ DE SUCRE" **TRABAJO SOBRE LAS PARTES DE LA TIERRA**	**Año lectivo 2021-2022**

8. Ubica según corresponda.

Los Océanos	Son extensiones de agua salada. Pero son de menor tamaño
Los Mares	Es una corriente de agua dulce que sigue un cauce
Los Ríos	Son enormes extensiones de agua salada que cubre gran parte de la superficie de la Tierra

9. Una con una línea según corresponda.

tropósfera	En esta capa circulan las señales radio y televisión En esta capa se producen las auroras boleares.
Estratósfera	No existe aire Es el límite entre el espacio exterior y la atmósfera terrestre
Mesósfera	En esta capa donde se produce los fenómenos metereológicos como: el clima, las nubes, el viento, la lluvia, las tormentas.
Termósfera	En esta capa se encuentra la capa de ozono, donde absorbe la radiación ultravioleta.
Exósfera	En esta capa existe poca cantidad de aire En esta capa se desintegran a mayor parte de los meteoritos, las estrellas fugases.

LIVEWORKSHEETS

	UNIDAD EDUCATIVA MUNICIPAL **"ANTONIO JOSÉ DE SUCRE"** **TRABAJO SOBRE LAS PARTES DE LA TIERRA**	**Año lectivo** **2021-2022**

10. Arrastra el nombre de cada capa de la atmosfera hasta el lugar correcto en el grafico:

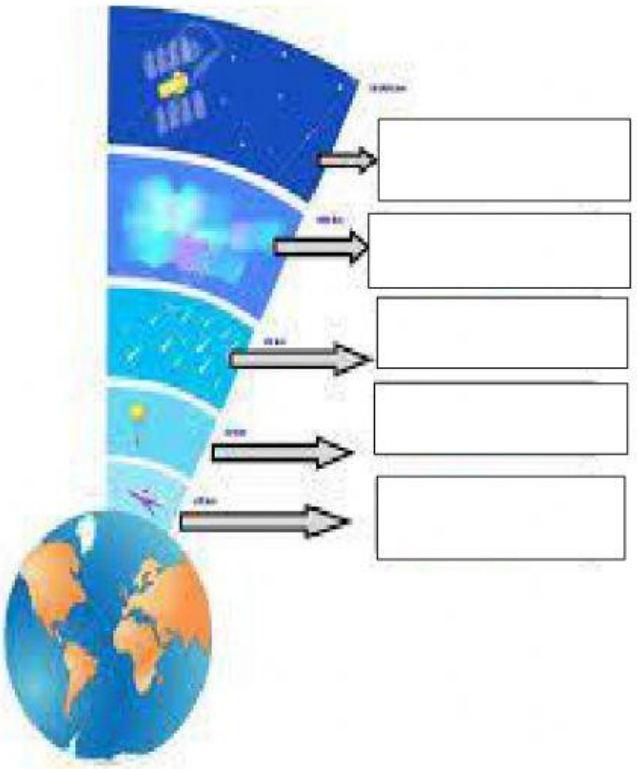

tropósfera

Estratósfera

Mesósfera

Termósfera

Exósfera

LIVEWORKSHEETS