J. 写出以下植物的各部位。（ 6 分 ）

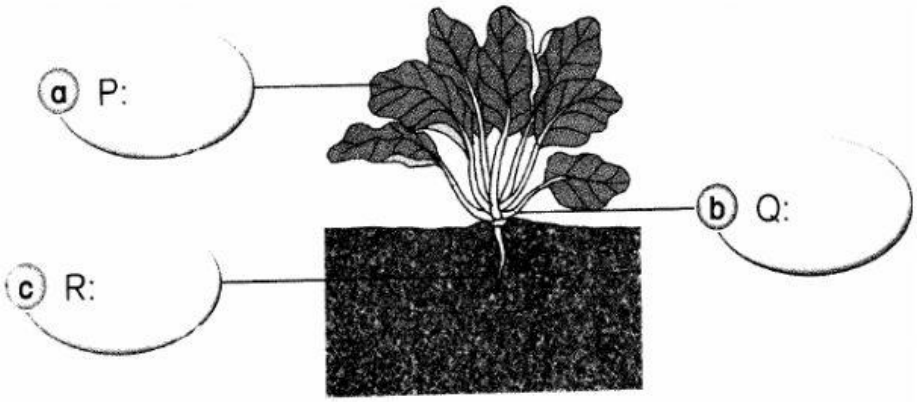

叶子
茎
根

K. 圈出正确的答案。（ 8 分 ）

	菠菜是（ 草质茎 、 木质茎 ）植物，它的茎是（ 坚硬 、 柔软 ）的。它有（ 主根 、须根 ）。蔬菜的叶子呈（ 平行脉 、网状脉 ）

I. 把能够被磁铁吸引的物体画（ √ ）（ 4 分 ）

			

LIVEWORKSHEETS

L. 在格子里填上正确的磁铁种类名称。（ 6 分 ）

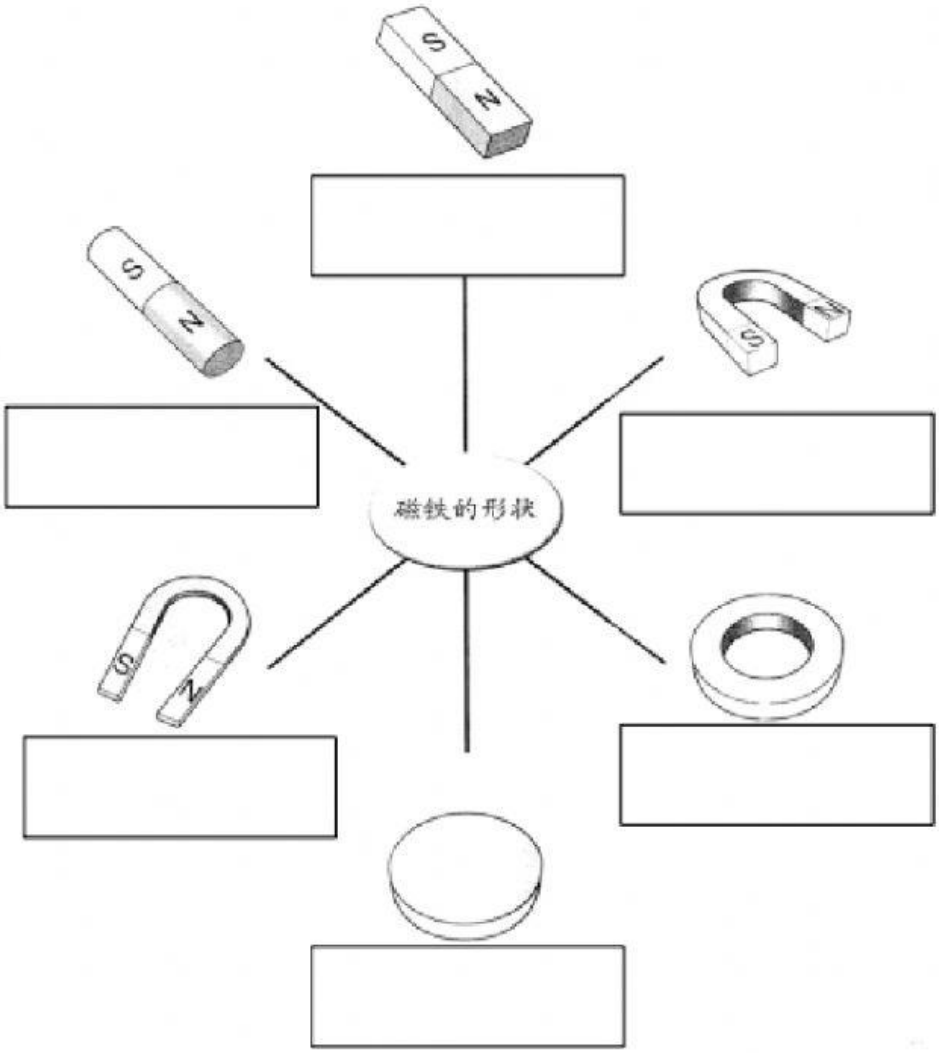

条形	U 形	马蹄形
棒性	纽扣形	环形

M. 选出正确的答案。

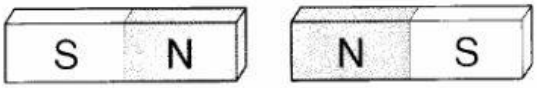	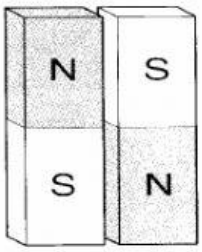

LIVEWORKSHEETS

N. 在正确的答案下画线。（ 4 分 ）

	雨衣 （ 会 、不会 ）吸水，所以身体不会被雨水淋湿。
	海绵 （ 会 、不会 ）吸水，所以能够清洗碗里的油渍。
	水桶是由 （ 会 、不会 ）吸水的材料制成的，它可以用来盛水；拖把（ 能吸水 、不能吸水 ），可以用来把地上的水抹干净。

O. 这些植物适合种在哪种土壤？填上正确的土壤。（ 6 分 ）

		

沙土	壤土	黏土

LIVEWORKSHEETS

P. 写出地形的名称。（ 16 分 ）



山丘	湖	河	海
池塘	高山	山谷	沙滩

LIVEWORKSHEETS

Q. 各将代表基本形状和基本立体的字母填在格子里。（ 4 分 ）

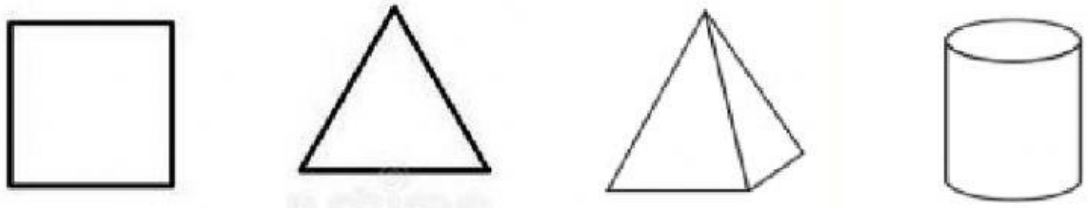

W　　X　　Y　　Z

基本形状	
基本立体	

R. 针对以下情况，圈出正确的答案。（ 5 分 ）



1. 如果将乒乓球改成正方体会怎样?
   正方体的乒乓球 （ 会 ， 不会 ）滚动，
   我们就 （ 能 ， 不能 ）打乒乓了。

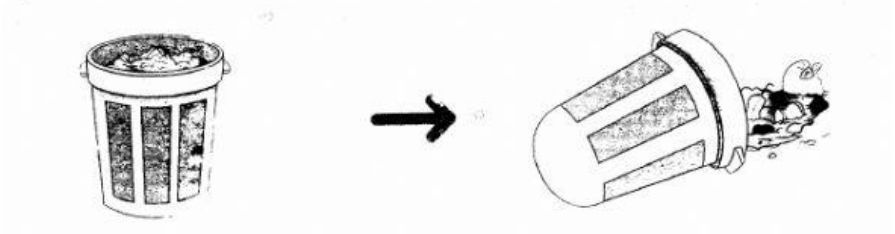

2. 如果将垃圾桶的底部改成球体会怎样?
底部球体的垃圾桶会 （ 滚动 、固定 ），会使垃圾全部倒出来。

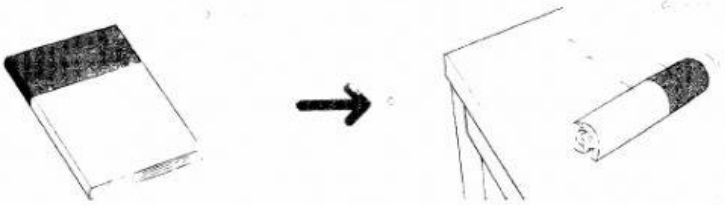

3. 如果将书本改成圆柱体会怎样?
   圆柱体的曲面使书本不会 （ 滚动 、固定 ），所以 （ 能够 、无法 ）看清楚上面的文字。

LIVEWORKSHEETS