# טריגונומטריה

## שאלה 1

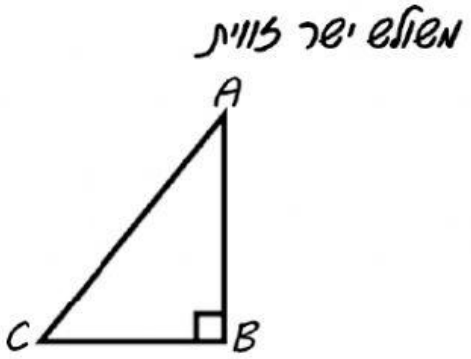


הצלע AB היא ניצב יתר

הצלע AC היא ניצב יתר

הצלע BC היא ניצב יתר

## שאלה 2

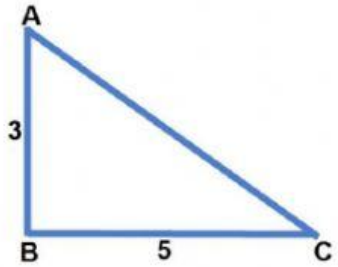


מהו שטח המשולש?

מהו אורך הצלע AC?

## שאלה 3

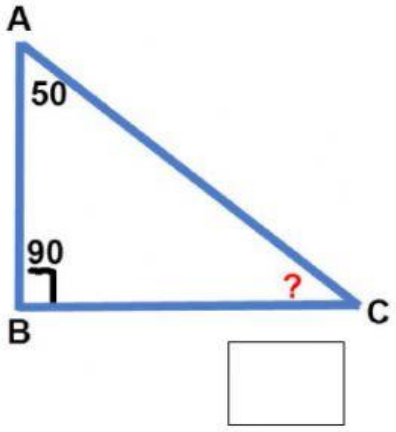


מהו גודלה של זווית C?

גרור את התשובה הנכונה:

30

40

50

LIVEWORKSHEETS