FERREÑAFE

ÁREA: MATEMÁTICA

2DO. GRADO
"LOS KOALAS"

1. Elige la respuesta correcta.

¿Cuántas mandarinas hay en total?



30 decenas de mandarinas.

3 decenas de naranjas.

3 decenas de mandarinas.

2. Ordena los números de mayor a menor.

Arrastra:

3. Ordena los números de menor a mayor



Arrastra:

LIVEWORKSHEETS

4. Escribe el número que corresponde en cada casillero.

Después de:		Antes de:	
519			282
28			290
637			461
249			498
425			190

5. Halla la suma y une cada adición con su resultado. **Relaciona**

14 + 6 + 5

19

32

23 + 0 + 7

20

12 + 4 + 3

26 + 3 + 3

30

24

12 + 6 + 2

14 + 10 + 0

25

LIVEWORKSHEETS

6. Resuelve. Escribe en los casilleros.

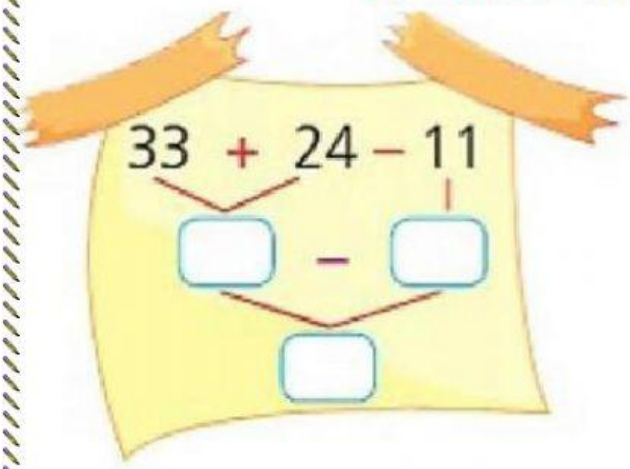

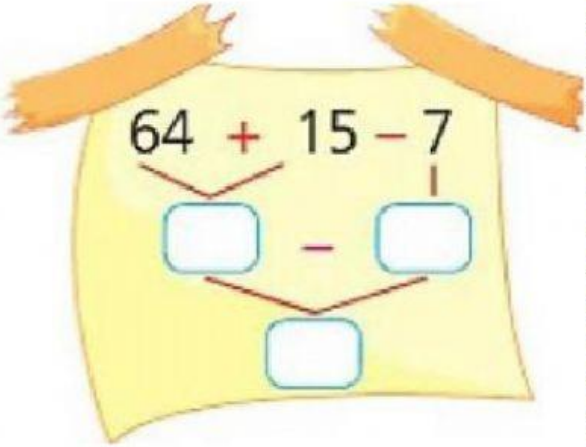

7. Completa la secuencia numérica. Escribe en los casilleros.

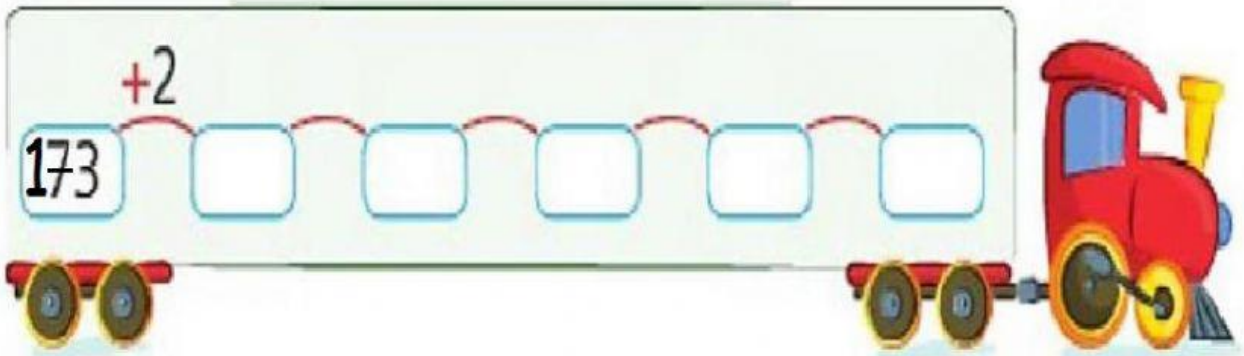



8. Completa la sucesión .



LIVEWORKSHEETS

9. Encuentra como se leen los números

25 / 103 / 46 / 50 /87 / 200

C	C	T	D	F	O	O	T	D	I	T	T	N
D	A	I	C	D	C	T	O	A	Y	S	Y	N
O	C	U	A	C	H	E	S	S	I	R	T	A
S	S	O	I	I	E	I	O	N	S	S	D	M
C	U	A	R	E	N	T	A	Y	S	E	I	S
I	V	E	I	N	T	I	C	I	N	C	O	S
E	C	I	I	T	A	S	E	D	B	C	S	C
N	I	L	U	O	Y	I	A	T	N	T	I	N
T	I	D	N	T	S	T	I	M	I	D	Q	E
O	T	I	S	R	I	S	U	E	M	I	E	A
S	T	T	N	E	E	I	L	E	A	E	E	E
U	E	A	R	S	T	E	Y	A	C	I	R	T
C	I	N	C	U	E	N	T	A	O	H	A	I

LIVEWORKSHEETS