SDLB TUNARUNGU PANGUDI LUHUR

Jl. Pesanggrahan 125, Kembangan,
Jakarta Barat 11610, Telp. (021) 5804223

Hari, Tanggal : **Rabu, 17 November 2021**

Kelas : **D.1B**

Mapel : **LAT UM AGAMA**

I. Pilihlah huruf A, B, atau C yang merupakan jawaban benar!

1. Perhatikan gambar berikut!

Gambar tersebut contoh anak bertubuh ….

A. gemuk B. kurus C. hitam

2. Gambar berikut yang menunjukkan anak berambut keriting adalah ….

A.

B.

C.

3. Perhatikan gambar berikut!

Gambar tersebut menunjukkan anak berkulit ….

A. putih B. sawo matang C. hitam

4. Nama papa Yesus adalah ….

A. Yohanes B. Yusuf C. Petrus

5. Pekerjaan Pak Yusuf adalah ….

A. nelayan B. petani C. tukang kayu

LIVEWORKSHEETS

6. Yesus tumbuh dan besar di kota ….

A. Betlehem B. Yudea C. Nazaret

7. Anggota tubuhku pemberian dari ….

A. orangtua B. Tuhan C. guru

8. Anggota tubuh kugunakan untuk melihat adalah ….

A. kaki B. mata C. hidung

9. Alat yang kugunakan untuk merawat rambut adalah ….

A. pasta gigi B. sabun C. sampo

10. Aku … pada Tuhan karena diberikan anggota tubuh yang lengkap.

A. sedih B. bersyukur C. marah

11. Tempat tinggal dan bernaung sebuah keluarga disebut ….

A. rumah B. sekolah C. gedung

12. Rumah menjadi tempat berlindung dari panas matahari dan ….

A. hujan B. mendung C. angin

13. Orang yang tinggal di dekat rumah kita disebut ….

A. teman B. tetangga C. guru

14. Tempat siswa belajar dan menuntut ilmu adalah di ….

A. sekolah B. rumah C. masyarakat

15. Rumah yang selalu bersih menjadikan sebuah keluarga ….

A. sehat B. sedih C. marah

16. Sejak kecil aku diberi nama oleh ….

A. paman B. orang tua C. guru

17. Ayah, ibu, dan anak disebut keluarga ….

A. besar B. inti C. bersama

18. Temanku ada yang kurus dan juga ada yang ….

A. tampan B. cantik C. gemuk

19. Manusia ciptaan Tuhan yang pertama laki-laki, diberi nama ….

A. Adam B. Hawa C. Abraham

20. Tumbuh-tumbuhan diciptakan Tuhan pada hari ke ….

A. 3 B. 4 C. 5

21. Pemimpin dalam keluarga adalah ….

A. anak B. ibu C. papa

LIVEWORKSHEETS

22. Perhatikan gambar berikut!

Sinonim dari cakrawala adalah ….

A. awan B. pelangi C. langit

23. Pencipta alam semesta adalah ….

A. Tuhan B. guru C. orang tua

24. Perhatikan gambar berikut!

Benda penerang langit adalah ….

A. tumbuhan B. matahari C. binatang

25. Gambar berikut yang menujukkan tempat untuk anak-anak meminjam buku adalah ….

A.

B.

C.

26. Perhatikan gambar berikut!

Gambar tersebut menunjukkan tempat untuk anak-anak ....

A. mendapat pelayanan kesehatan

B. berolahraga

C. belajar komputer

27. Keluarga yang bahagia adalah ketika semua anggota keluarga saling ….

A. mengejek B. menyayangi C. membenci

28. Setiap anggota keluarga mempunyai … sendiri.

A. uang B. kedudukan C. makanan

29. Orang yang melahirkan kita adalah ….

A. bibi B. ibu C. nenek

LIVEWORKSHEETS

30. Perhatikan gambar berikut!

Gambar tersebut menunjukkan tempat untuk anak-anak membeli ….

A. alat tulis B. seragam C. makanan

II. Isilah titik-titik berikut dengan benar!

6 hari	Adam	Taman Eden	bintang
Tuhan	tulang rusuk Adam	laki-laki	cakrawala
kosong	tanah	dipelihara	keenam
beristirahat	manusia	ketiga	pertama

31. Yang menciptakan bumi dan segala isinya adalah _____

32. Allah menempatkan Adam dan Hawa di _____

33. Tuhan menciptakan bumi dan segala isinya selama _____

34. Allah menciptakan bumi dan segala isinya untuk _____ manusia.

35. Manusia pertama yang diciptakan Allah diberi nama _____

36. Hari ke empat Allah menciptakan matahari, bulan, dan _____

37. Pada hari kedua Tuhan menciptakan _____

LIVEWORKSHEETS

38. Allah menciptakan hawa dari

39. Jenis kelamin Adam adalah

40. Adam diciptakan Allah dari segumpal yang dibentuk.

41. Tuhan menciptakan gelap dan terang pada hari

42. Sebelum Allah menciptakan alam semesta keadaan bumi masih

43. Pada hari ke – 7 Allah

44. Ciptaan Allah menurut gambar dan rupa Tuhan adalah

45. Daratan dan lautan diciptakan Allah pada hari

46. Tuhan menciptakan manusia pada hari

III.Pasangkanlah kegiatan yang dilakukan dengan cara merawat tubuhnya!

LIVEWORKSHEETS

IV. Pasangkan anggota tubuh dan kegunaannya dengan benar!

Dengan mata, aku dapat

Dengan mulut, aku dapat

Dengan tangan, aku dapat

Dengan kaki, aku dapat



V. Pasangkan gambar kisah penciptaan sesuai dengan urutan hari penciptaannya!

Hari keempat

Hari kedua

Hari keenam

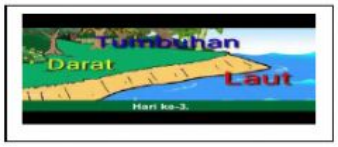

Hari pertama



Hari kelima

Hari ketiga

LIVEWORKSHEETS

LIVEWORKSHEETS