REPASO UNIDAD 9

Mide con una regla y completa.

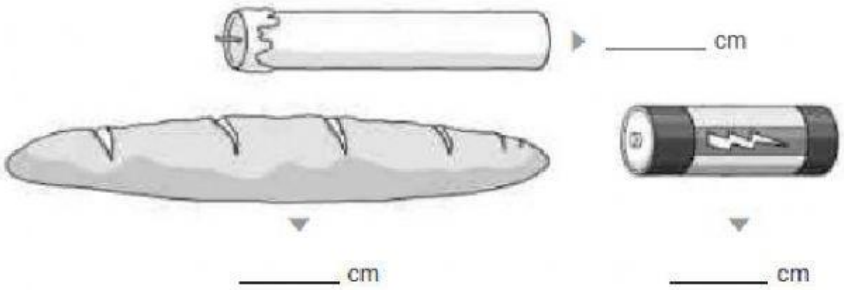

Calcula y completa.

5 dm = _____ cm 72 m = _____ dm 45 m = _____ cm

6 dm y 9 cm = _____ _cm + _____ cm = _____ cm

9 km y 85 m = _____ m + _____ m = _____ m

Completa.

¿Cuántos medios litros son?

- 5 litros ▶ _____ medios litros.
- 1 litro y medio ▶ _____ medios litros.
- 2 litros y medio ▶ _____ medios litros.

¿Cuántos cuartos de litro son?

- 4 litros ▶ _____ cuartos de litro.
- 1 litro y cuarto ▶ _____ cuartos de litro.
- 3 litros y medio ▶ _____ cuartos de litro.

Ordena de menor a mayor estas longitudes:

30 m 250 dm 4.000 cm

_____ < _____ < _____

LIVEWORKSHEETS

Observa la capacidad de cada recipiente y calcula cuántos medios litros de zumo hay en cada grupo de recipientes.

¿Cuánto pesa cada mochila? Observa las balanzas y completa.

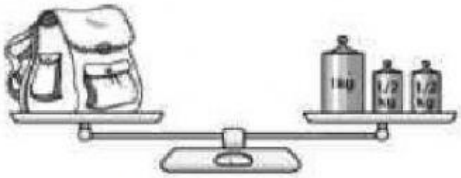

La mochila pesa _____ g

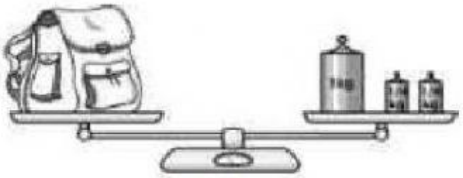

La mochila pesa _____ g

¿Cuántos gramos pesa cada fruta?



_____ g



_____ g

LIVEWORKSHEETS