1. Completa el cuadro sobre el ritmo y la melodía:

El ritmo y la melodía son los elementos más importantes de la música.

El _____ se refiere a la duración de los sonidos, la _____ y los _____ .

Las melodía se refiere a la _____ de los sonidos.

2. Completa el cuadro:

Nombre	Figura	Duración	Silencio
	𝅝	4 tiempos	𝄻
Blanca	𝅗𝅥		𝄼
Negra	♩	1 tiempo	
Corchea			𝄾
	𝅘𝅥𝅯	1/4 tiempo	



3. Relaciona:

Síncopa

Silencio de corchea y corchea

Negra con puntillo

Corchea y dos semicorcheas



5. Encuentra las síncopas. Haz click sobre los compases que haya síncopas.

5. Clasifica los intervalos

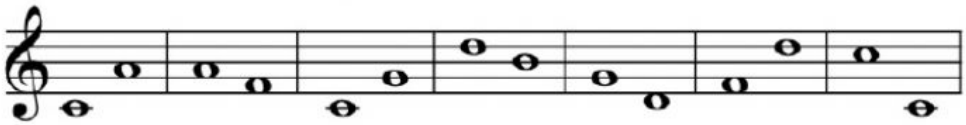

LIVEWORKSHEETS