ورقة عمل

الموضوع: تعزيز المهارات الأساسية

اسم الطالبة:

المادة: رياضيات

الصف: ثاني ابتدائي

ممتازة
يا بطلة

❖ أختاري الإجابة الصحيحة:

❖ أجد ناتج الطرح:

١) ٧ – ٣ = ...

٤	٥	٦

٢) ١٠ ـ ٥ =

٣	٤	٥

٣) أعد تصاعدياً لأجد ناتج الجمع مستعينا بخط الأعداد:

- ٢ + ٦ = ...

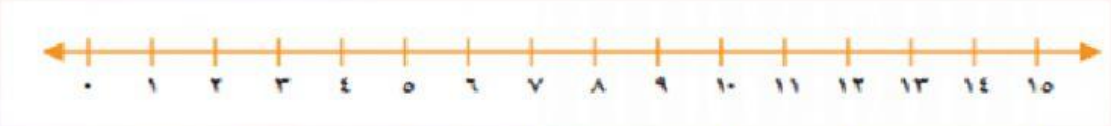

٧	٨	٩

- ٤ + ٥ = ...

٧	٨	٩

٤) أطرح بالعد التنازلي مستعملاً خط الأعداد:

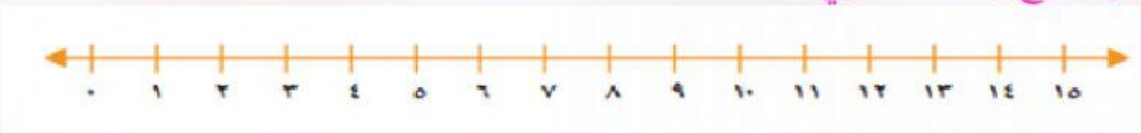

- ٨ - ٥ = ...

١	٢	٣

LIVEWORKSHEETS

٥) أستعمل خط الأعداد لأكتب الإعداد بالترتيب:

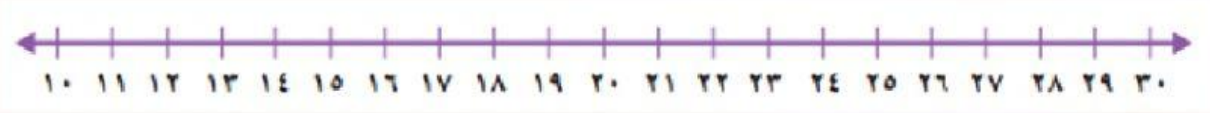

- ١٥، .....، ١٣

١٤	١٦	١٧

- ١٨، .....، ٢٠

١٧	١٨	١٩

٦) أقارن بين كل عددين، واكتب <، > ، = في ● :

- ٦٣ ● ٦٤

<	>	=

- ٥٥ ● ٥٥

<	>	=

❖ صلي بين صورة العدد بالكلمات وصورته بالأرقام:

واحد و أربعون	٨٠	ثمانية و ستون
٦٨	٤١	ثمانون

إعداد المعلمة: عفاف مجمي.

LIVEWORKSHEETS