Tarea Domiciliaria Nº 3

1. Indicar verdadero o falso en cada caso:
   a) Espacio es I.P. a Velocidad ( )
   b) Velocidad es D.P. a Tiempo ( )
   c) Tiempo es I.P. a Obra ( )

2. Indicar verdadero o falso en cada caso:
   a) Peso es D.P. a Precio ( )
   b) Habilidad es I.P. a Tiempo ( )
   c) Dificultad es D.P. a Tiempo ( )

3. Del gráfico calcular "a + b"

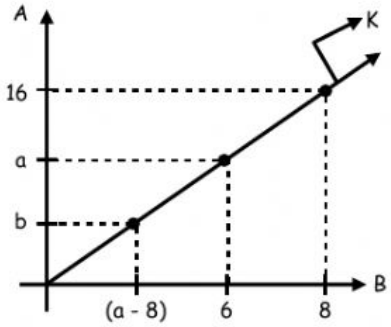

a) 4 b) 8 c) 12
d) 16 e) 20

4. Del gráfico calcular: "m . n + p"

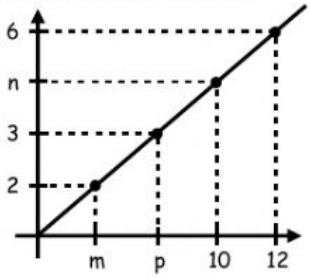

a) 200 b) 26 c) 207
d) 702 e) 270

5. Del gráfico calcular: "a + b"

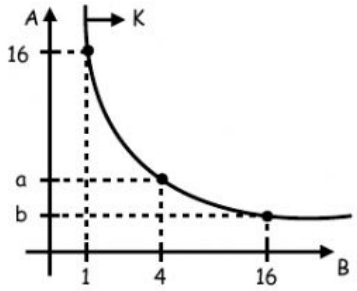

a) 1 b) 4 c) 5
d) 10 e) 15

6. Del gráfico calcular "y - x"

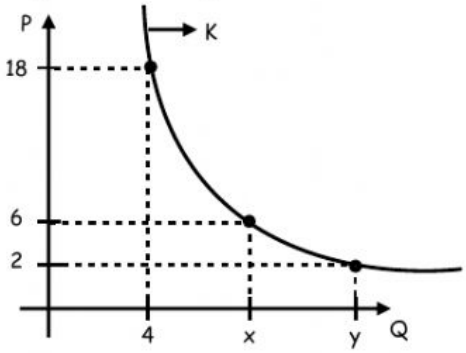

a) 12 b) 24 c) 36
d) 48 e) 72

7. Si: A es I.P. a B y cuando A = 24; B = 8. ¿Cuánto valdrá A cuando B = 16?

a) 12 b) 18 c) 24
d) 48 e) 96

8. Si: A es D.P. a $\sqrt{B}$ y cuando A = 6; B = 4. ¿Cuánto valdrá A cuando B = 9?

a) 6 b) 9 c) 18
d) 24 e) 36

9. Si: $\sqrt[3]{A}$ es I.P. a B^2 cuando A = 8; B = 2. Calcular el valor de B cuando A = 1.

a) 1 b) $2\sqrt{2}$ c) $3\sqrt{2}$
d) 4 e) $8\sqrt{2}$

10. Si: A es D.P. a B^4 cuando A = 48; B = 2. Calcular A cuando B = 3.

a) 243 b) 81 c) 27
d) 9 e) 3

LIVEWORKSHEETS