Triángulos

Son polígonos de tres lados, tres ángulos y tres vértices

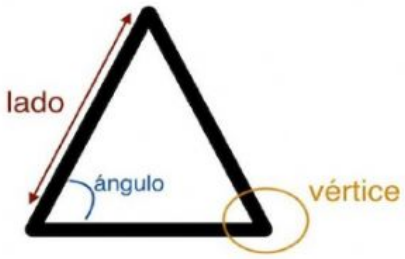

SEGÚN LA LONGITUD DE SUS LADOS :

EQUILÁTERO

3 lados iguales

ISÓSCELES

2 lados iguales

ESCALENO

ningún lado igual

SEGÚN SUS ÁNGULOS :

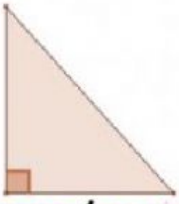

RECTÁNGULO

1 ángulo recto

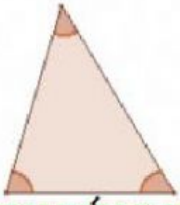

ACUTÁNGULO

3 ángulos agudos

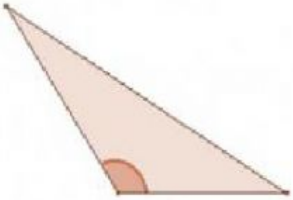

OBTUSÁNGULO

1 ángulo obtuso

LIVEWORKSHEETS

Clases de triángulo según la medida de sus ángulos

Arrastra cada triángulo al lugar que le corresponde

EQUILÁTERO	ISÓSCELES	ESCALENO
Tiene los tres lados iguales	Tiene dos lados iguales y uno desigual	Tiene los tres lados distintos

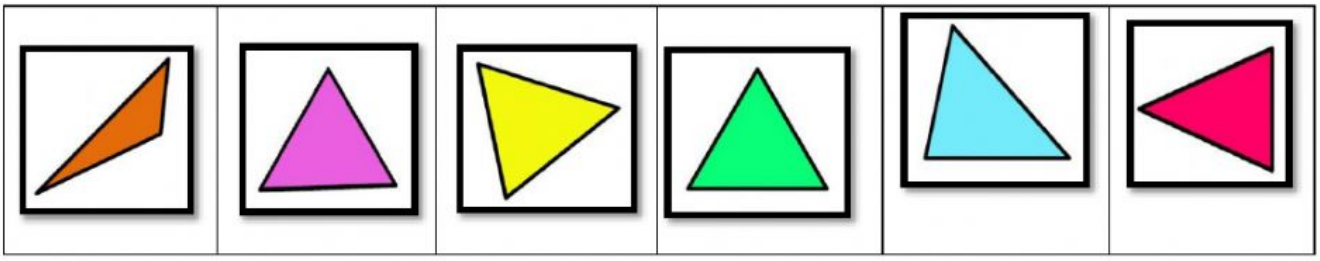

LIVEWORKSHEETS

Halla, y escribe tres de los triángulos que hay en cada una de las siguientes figuras:

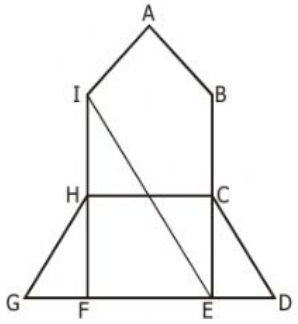

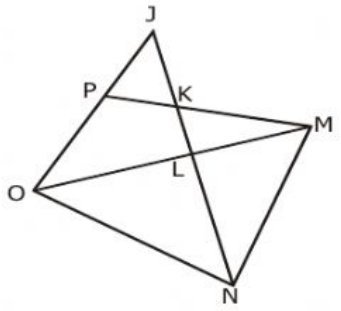

Ejemplo: CEO es un triángulo

Ejemplo: MLN es un triángulo

Mira los lados de cada triángulo y relaciona con una línea

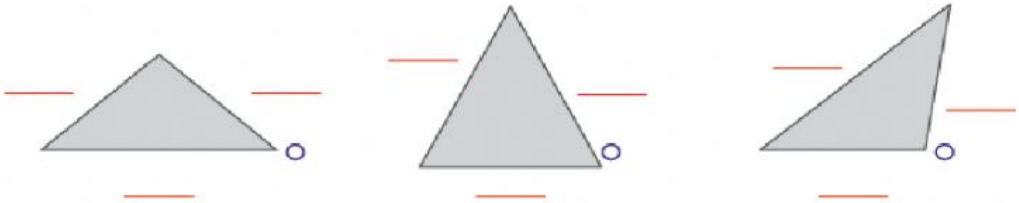

equilátero

isósceles

escaleno

LIVEWORKSHEETS