Họ và tên: …….. Lớp: …….

PHIẾU ÔN TẬP CUỐI TUẦN – MÔN TOÁN

Tuần 9

Bài 1: Thực hiện phép tính:

3 + 6 = ….	2 + 5= …..	5 + 3 =…….	7 + 2 = …..
6 + 3 = …..	5 + 2= …….	3 + 5 =…….	2 + 7 =…..
3 + 4 = ….	8 + 2= …..	9 + 1 =…….	5 + 4 = …..

Bài 2: Nối đúng:



Bài 3. Số ?

a. 1 + ☐ = 10 2 + ☐ = 10

b. 3 + ☐ = 10 4 + ☐ = 10

c. 5 + ☐ = 10 6 + ☐ = 10

LIVEWORKSHEETS

Bài 4: Điền số:

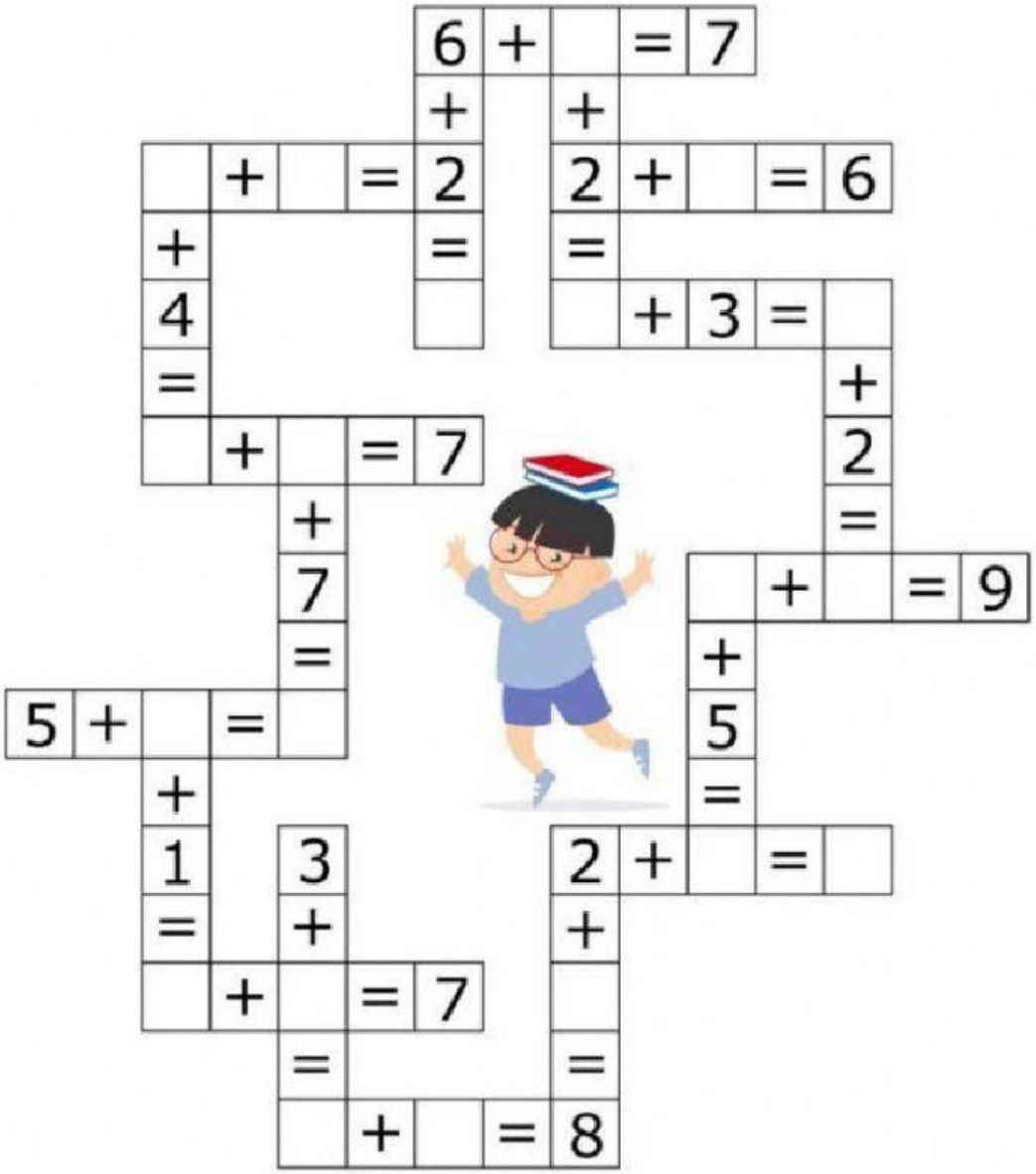

Bài 5. Điền phép tính thích hợp cho bức tranh sau.





LIVEWORKSHEETS

LIVEWORKSHEETS