液体的体积

（课本第 175 – 181 页）

A 完成以下换算。

TP1

1. 9 升 = ____ 毫升
2. 20 000 mℓ = ____ ℓ
3. 7 500 mℓ = ____ ℓ ____ mℓ
4. 3 855 mℓ = ____ ℓ ____ mℓ
5. 8 ℓ 30 mℓ = ____ mℓ
6. 6 ℓ 4 mℓ = ____ mℓ

B 测量以下液体的体积。

TP2

1.

____ mℓ

2.



____ ℓ ____ mℓ

3.



____ ℓ ____ mℓ

4.

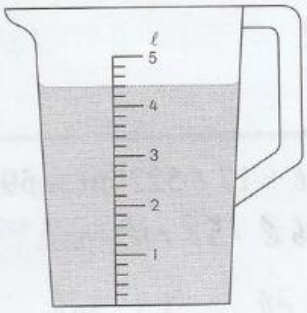

____ ℓ ____ mℓ

家庭互动天地

准备长度、质量与液体体积的单位换算的问题卡。与家人轮流抽问题卡，每个人可以选择自己回答或让对方回答，答对的人将得分。最后，最高分者获胜。

LIVEWORKSHEETS