แบบฝึกทักษะที่ 1.1

เรื่อง แผนภาพจุด (การอ่าน)

จงตอบคำถามต่อไปนี้ให้ถูกต้อง

3. ในคาบเรียนวิชาวิทยาศาสตร์ ครูให้นักเรียนจับชีพจรของตนเองเพื่อหาอัตราการเต้นของหัวใจ (ครั้งต่อนาที) ได้ผลดังแผนภาพจุดต่อไปนี้

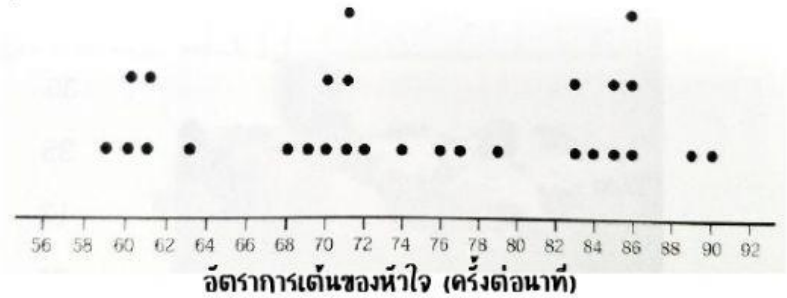

อัตราการเต้นของหัวใจ (ครั้งต่อนาที)

1) ในคาบเรียนนี้มีนักเรียนทั้งหมดกี่คน

ตอบ.....

2) พิสัยของอัตราการเต้นของหัวใจของนักเรียนเป็นเท่าใด

ตอบ.....

เรื่องน่ารู้

พิสัย (range) ของข้อมูลเท่ากับ ค่าสูงสุดของข้อมูลลบด้วยค่าต่ำสุดของข้อมูล

3) นักเรียนส่วนใหญ่มีอัตราการเต้นของหัวใจเป็นเท่าใด

ตอบ.....

4. จำนวนชั่วโมงในการนอนของนักเรียนเมื่อวันรุ่งขึ้นเป็นวันหยุด นำเสนอข้อมูลที่ได้โดยใช้แผนภาพจุด ดังนี้

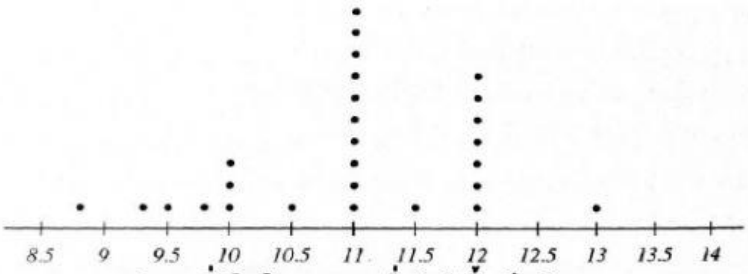

จำนวนชั่วโมงในการนอนเมื่อวันรุ่งขึ้นเป็นวันหยุด

1) พิสัยของจำนวนชั่วโมงที่นักเรียนใช้ในการนอนเป็นเท่าไร

ตอบ.....

2) จำนวนชั่วโมงในการนอนของนักเรียนส่วนใหญ่อยู่ในช่วงใด

ตอบ.....

LIVEWORKSHEETS

3) จำนวนชั่วโมงสูงสุดในการนอนของนักเรียนเป็นเท่าใด

ตอบ.....

4) จำนวนชั่วโมงต่ำสุด ในการนอนของนักเรียนเป็นเท่าใด

ตอบ.....

5. ร้านขายเสื้อผ้าสุภาพบุรุษแห่งหนึ่งจำหน่ายกางเกงสแล็กจำนวน 40 ตัว วัดขนาดรอบเอวเป็นนิ้วได้เป็นแผนภาพจุด ดังนี้

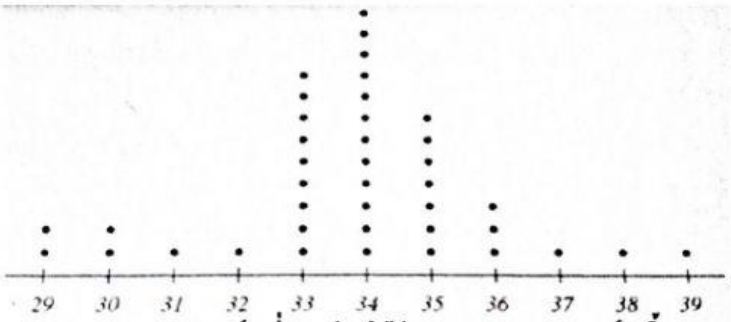

จำนวนกางเกงสแล็กที่จำหน่ายได้วัดตามขนาดรอบเอวเป็นนิ้ว

1) กางเกงสแล็กขนาดรอบเอวกี่นิ้วขายได้มากที่สุด จำนวนกี่ตัว

ตอบ.....

2) กางเกงสแล็กขนาดรอบเอว 33 นิ้ว ขายได้กี่ตัว

ตอบ.....

3) พิสัยของขนาดรอบเอวของกางเกงสแล็กเป็นเท่าไร

ตอบ.....

LIVEWORKSHEETS