hoạt động

1 Mỗi đồ vật có dạng hình gì?

Hình vuông

Hình tròn

Hình chữ nhật

Hình tam giác

LIVEWORKSHEETS

hoạt động

2 Những hình nào là hình tròn?

LIVEWORKSHEETS
FestyForwarders_0988129372

hoạt động

2 Những hình nào là hình tam giác?



LIVEWORKSHEETS

hoạt động

2 c) Những hình nào là hình vuông?

LIVEWORKSHEETS

hoạt động

2 d) Những hình nào là hình chữ nhật?



LIVEWORKSHEETS
Feisty-brewsters_0868120672

hoạt động

3 Trong hình sau có bao nhiêu hình vuông?
Bao nhiêu hình tròn? Bao nhiêu hình tam giác?

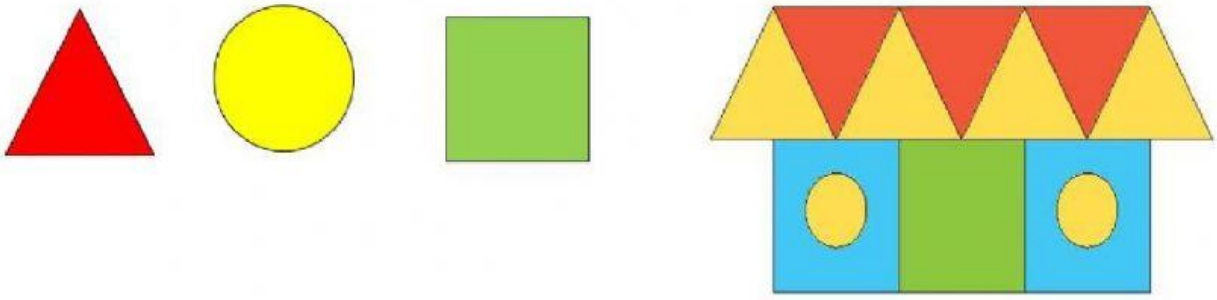

LIVEWORKSHEETS