INSTRUMEN PENTAKSIRAN PENGUASAAN

MATEMATIK ASAS (IPPMA) TAHAP 1 (3/3)

NAMA:_____ KELAS:_____

Tuliskan masa yang ditunjukkan berdasarkan jarum jam dan jarum minit.

根据钟面上所显示的时针和分针，写出时间。

83.



84.



LIVEWORKSHEETS

Pilih duit syiling mengikut nilai yang diberi.

选择相等的币值。

	Nilai	Duit Syiling
88.	40 sen	
89.	65 sen	
90.	70 sen	
91.	85 sen	
92.	90 sen	

LIVEWORKSHEETS

Pilih wang mengikut nilai yang diberi.

选择相等的币值。

	Nilai	Duit Syiling
93.	RM 3.00	
94.	RM 5.00	
95.	RM 7.00	

LIVEWORKSHEETS

Selesaikan masalah berikut.

回答问题。

	Soalan 问题	Jalan kerja 算式
96.	Musa ada 12 batang pensel.Laila ada 5 batang pensel. Berapakah jumlah pensel yang mereka ada? 慕沙有 12 支铅笔，莱拉有 5 支铅笔，他们共有几支铅笔？ □□□□□	□□ □ □ ——— □□ ———
97.	Siti ada 27 biji guli. Dia beri 14 biji guli kepada Adi. Berapakah baki guli Siti? 西蒂有 27 颗玻璃弹珠。他把 14 颗玻璃弹珠给了爱迪。西蒂还剩多少颗玻璃弹珠？ □□□□□	□□ □□□ ——— □□ ———
98.	Sebuah kotak ada 35 biji epal. Ramu mengeluarkan 12 biji epal. Berapakah baki epal dalam kotak itu? 一个盒子有 35 个苹果。拉姆把 12 个苹果拿了出来。盒子里还剩多少个苹果？ □□□□□	□□ □□□ ——— □□ ———

LIVEWORKSHEETS

99.	Cikgu Liza ada 49 biji buah limau. Dia memberi sama banyak kepada 7 orang murid. Berapakah biji buah limau yang akan diterima oleh setiap murid? ☐ ☐ ☐ ☐ ☐	☐ ☐) ☐ ☐ ☐ ☐ ☐
100.	Terdapat 6 bakul di stor sukan. Setiap bakul ada 3 biji bola getah. Hitung jumlah bola getah. 体育室里有 6 个篮子。每个篮子装有 3 粒胶球。计算共有几粒胶球。 ☐ ☐ ☐ ☐ ☐	☐ ☐ ☐ ☐ ☐

LIVEWORKSHEETS