CONTROL SOCIALS TEMA 1 - 5è curs 2021-22

NOM……..……DATA……....

1. Observa el dibuix del sistema solar, escriu el nom dels astres i respon.

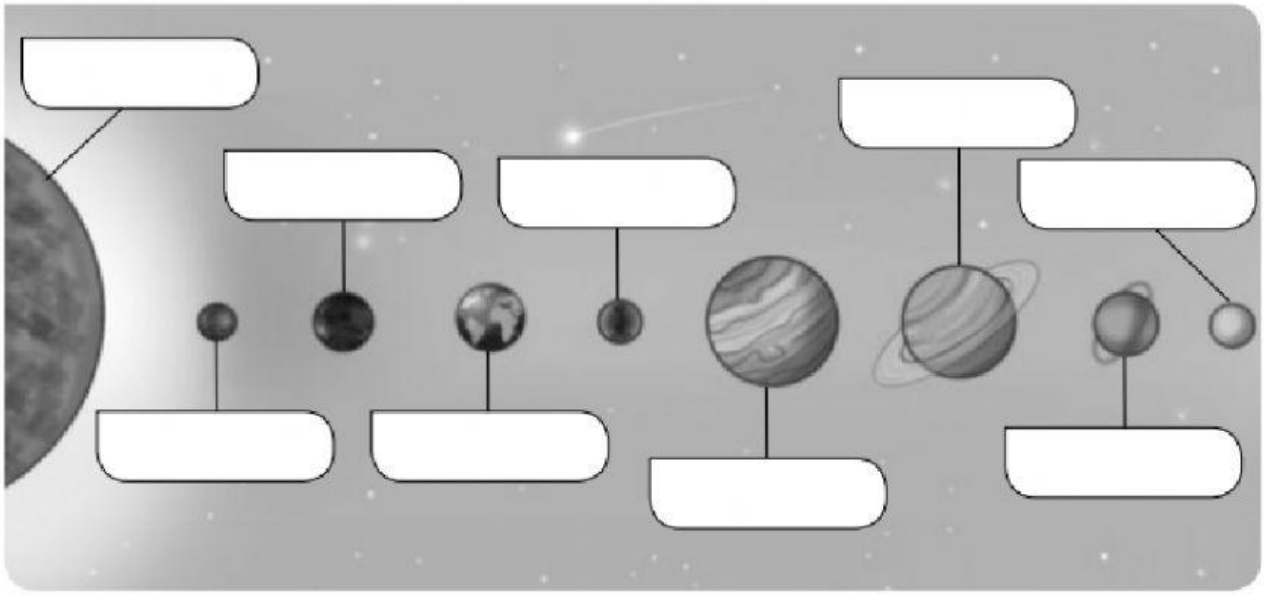

2. Quina és l'estrella del sistema solar?

3. Observa el dibuix i respon a les preguntes.

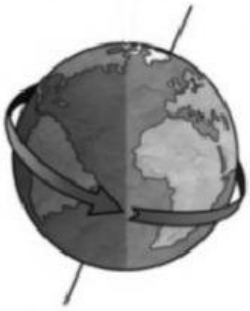

Quin moviment de la Terra representa?

Quant de temps tarda a fer-lo?

A què dóna lloc aquest moviment?

4. Respon a les preguntes.
   a. Quin altre moviment fa la Terra?

   b. Quant tarda a fer-lo?

   c. A què dóna lloc aquest moviment?

LIVEWORKSHEETS

5. Escriu el nom de les capes de la geosfera en el lloc que correspongui.

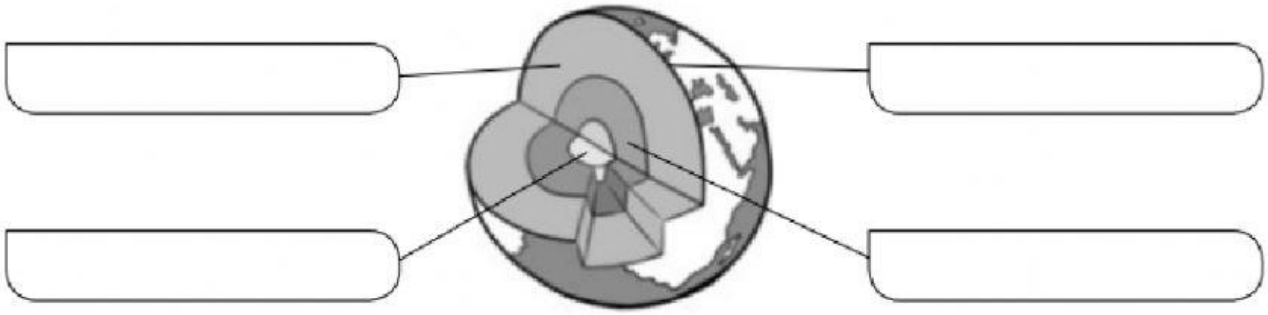

6. L'Univers està format per…

a. tots els astres que existeixen i l'espai que hi ha entre ells.

b. estels i constel·lacions.

c. asteroides i cometes.

7. Les constel·lacions són grups de…

a. planetes.

b. estels.

c.asteroides.

8. Els planetes són astres grans, de forma esfèrica i…

a. sense llum pròpia. b. amb aigua c. amb llum pròpia.

9. La Terra es torba a fer una volta sencera damunt ella mateixa…

a. 365 dies.

b. 6 hores.

c. 24 hores.

10. El satèl·lit de la Terra és…

a. el cometa Halley.

b. el Sol.

c. la Lluna.

LIVEWORKSHEETS