Colegio Roberto Matta
ASIGNATURA: Ciencias NaturalesEJE: FÍSICA

ACTIVIDAD EN CLASES

I.- Coloque la etiqueta de cada concepto en el lugar que corresponda:

CRESTA | VALLE | PUNTO DE ENQUILIBRIO | CICLO | LONGITUD DE ONDA | AMPLITUD

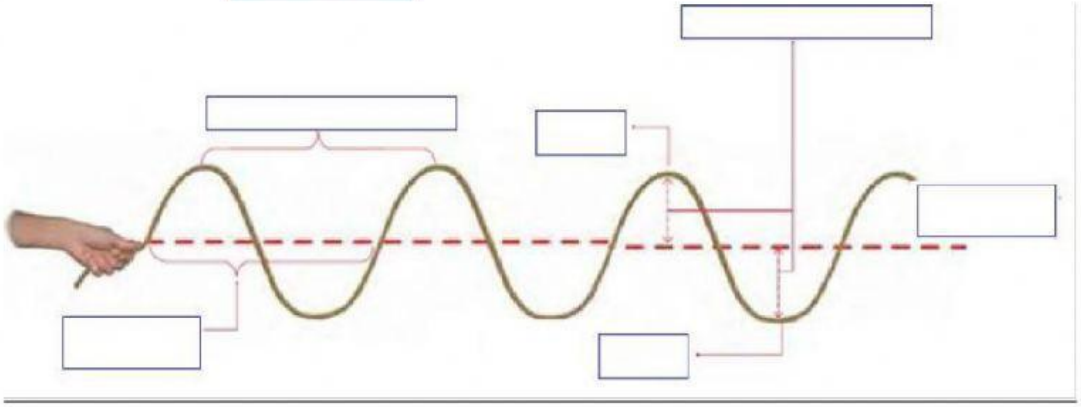

II.- Observa la siguiente onda y coloca la etiqueta con la respuesta correcta:

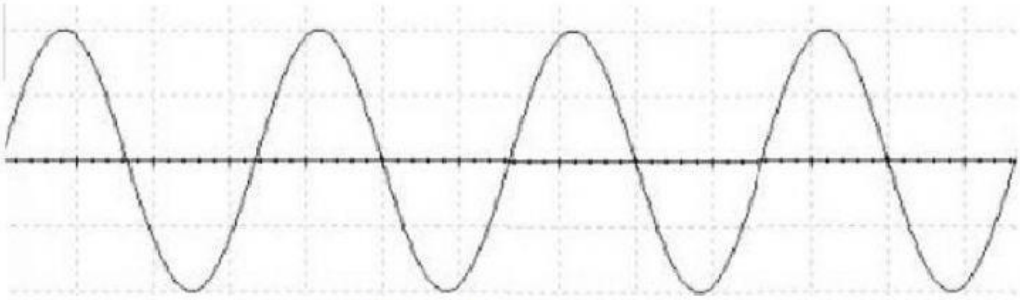

¿Cuántos ciclos hay en la onda? R:

III.- Observa la onda de la siguiente cuadrícula y selecciona la respuesta correcta para la longitud de onda y la amplitud (Cada cuadro representa 1 cm^2)

- La longitud de onda sería de:
- La amplitud sería de:

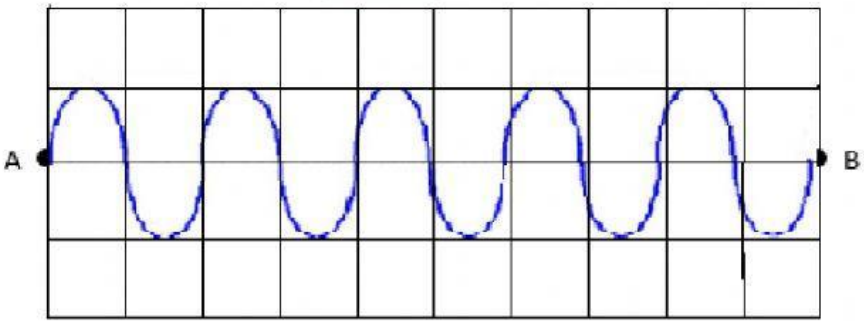

LIVEWORKSHEETS