ROYAL INTERNATIONAL BILINGUAL SCHOOL
A member of HUTECH EDUCATION

Họ và tên: .....

Lớp: 1B1

ÔN TẬP GIỮA HỌC KÌ I

Đánh dấu ✓ vào trước câu trả lời đúng.

<u>Câu 1:</u> Vật nào có dạng khối hộp chữ nhật ?

A.

B.

C.

<u>Câu 2:</u> Điền số thích hợp vào chỗ chấm: 2 < .... < 4

A. 3 B. 4 C. 2

<u>Câu 3:</u> Điền số thích hợp vào chỗ chấm:

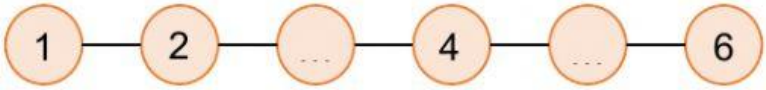

<u>Câu 4:</u> Điền số thích hợp vào chỗ trống:

A. 2

B. 3

C. 4

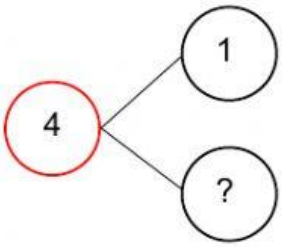

<u>Câu 5:</u> Đếm, viết số:

a/

....

b/ 

....

LIVEWORKSHEETS

<u>Câu 6:</u> Chọn sơ đồ phù hợp với hình bên:

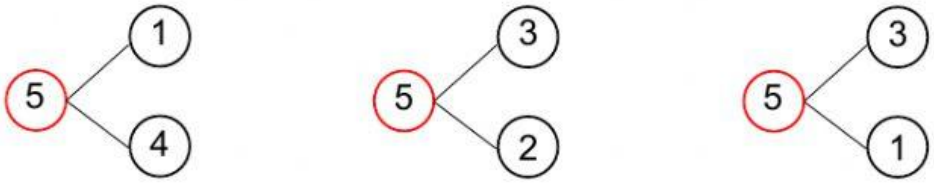

<u>Câu 7:</u> Dãy số được sắp xếp theo thứ tự từ *lớn đến bé* là:

A. 1, 3, 5 B. 5, 3, 1 C. 3, 5, 1

<u>Câu 8:</u> Điền số thích hợp vào chỗ chấm:

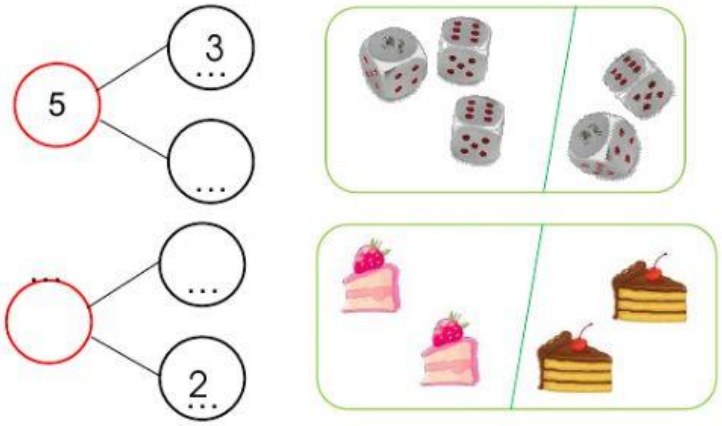

<u>Câu 9:</u> Điền dấu: >, <, =

a/ 4 ..... 5 b/ 2 3

LIVEWORKSHEETS

<u>Câu 10:</u> Hộp sữa ở vị trí nào?

A. Bên trái

B. Ở giữa

C. Bên phải

<u>Câu 11:</u> Viết các số 2,1, 4, 5 theo thứ tự từ *lớn đến bé:*

⇨ ..... , ... , ... , ...

<u>Câu 12:</u> Có ..... hình tam giác:

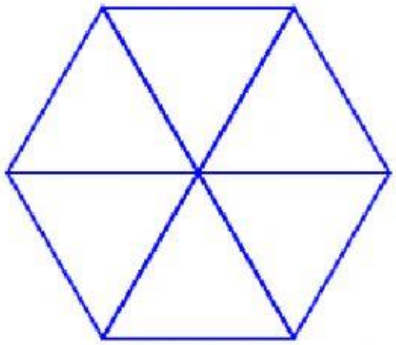

LIVEWORKSHEETS