Evaluación Unidad 1 3EGB

1.- Escriba como se leen las cantidades.

679

305

983

2.- Lea y escriba los siguientes números.

Quinientos sesenta y dos

Trescientos noventa y uno

Ochocientos cuarenta

3.- Escriba al dictado las cantidades.

4.- Una con líneas la descomposición y el número

700 | 893 | 721 | 506

700 + 20 + 1 | 7C 0D 0U | 5C 0D 6U | 800 + 90 + 3

5.- Resuelva las sumas.

	6	7	5
+	1	9	7

	2	6	4
+	3	8	7

LIVEWORKSHEETS

5.- Escriba el número que forma la base 10.

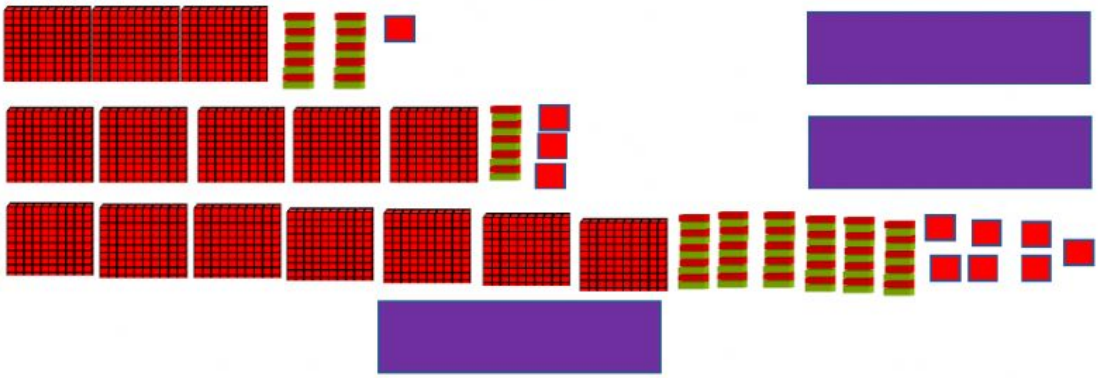

6.- Arrastre los números siguiendo la secuencia.

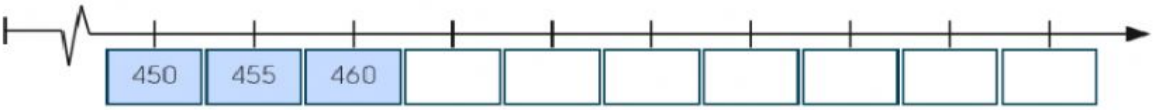

485	470	440	475	490	465	497	477	495	480

7.- Observe y complete lo que se le solicita.

Cuente los juguetes preferidos de una encuesta de los niños de tercer grado.

Cuente y complete el número de juguetes.

Juguete	Total

Seleccione los cuadros de debe pintar para realizar el gráfico de barras.

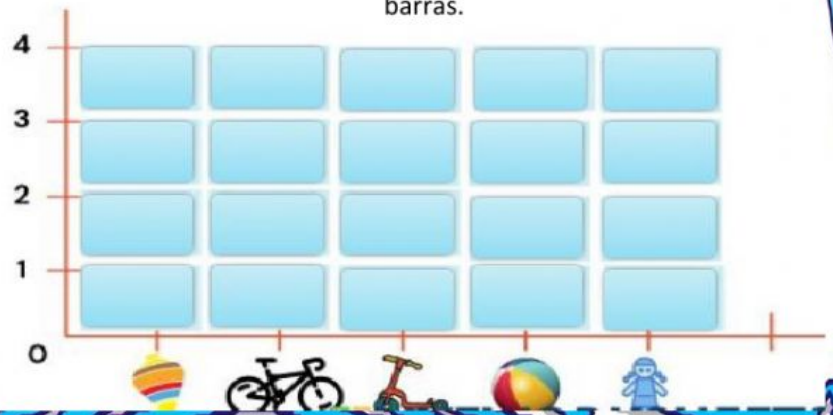

LIVEWORKSHEETS