Prof. Medalit Castro Velásquez

PROBABILIDADES EN LA RUEDA DE LA FORTUNA

1. Paula tiene muchas ruletas y no sabe cuál elegir. Une cada ruleta con el enunciado correspondiente.

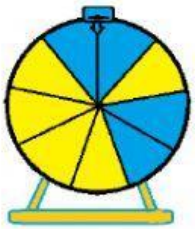

Es un hecho seguro obtener un color amarillo o azul.
Es más probable que obtenga el color rojo.
Es igual de probable que obtenga el color rojo o verde.
Es imposible obtener el color morado.
Es menos probable que obtenga el color amarillo.
Es seguro que al girar la ruleta obtendrá el color verde.

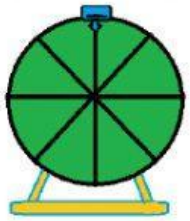

2. Gana si sale el color rojo al girar la ruleta. Lee la situación y escribe el nombre de cada niño en la ruleta que corresponda.

Fabián Renata

Fabián tiene muy pocas posibilidades de ganar. Renata gana con seguridad. ¿Cuáles serán las ruletas?

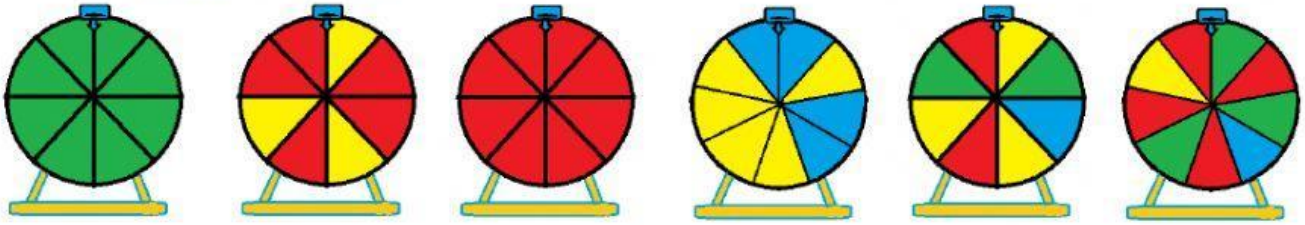

LIVEWORKSHEETS