MULTIPLICACIÓN Y DIVISIÓN

Selecciona los resultados de la tabla del 4

10	40	20	4	28
32	2	12	18	1
16	22	36	6	5
8	24	7	19	16

Completa la serie numérica y escribe el resultado de las multiplicaciones.

4 ____ ____ ____ 20 ____ ____ ____ ____ ____

Escribe el número que falta.

4 x ____ = 20

4 x ____ = 16

4 x ____ = 28

4 x ____ = 36

LIVEWORKSHEETS

Resuelve las siguientes multiplicaciones.

5 x 6 = ☐ 5 x 9 = ☐ 5 x 2 = ☐

5 x 3 = ☐ 5 x 7 = ☐ 5 x 5 = ☐

Completa el círculo multiplicando el número del centro por el anillo intermedio para conseguir los números externos.

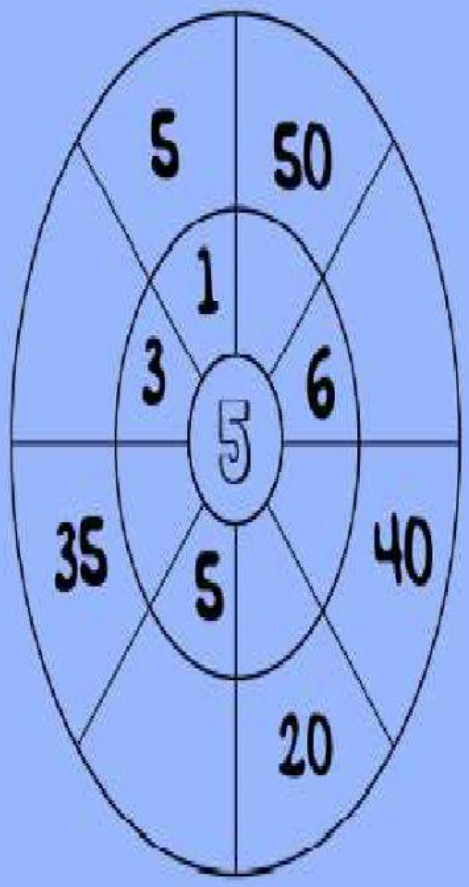

LIVEWORKSHEETS

Agrupa y resuelve

Tenemos 15 globos y lo repartimos en bolsas de 3 globos.
¿Cuántas bolsas necesitamos?

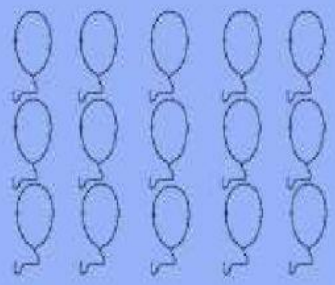

15:3= ☐ Necesitamos_____bolsas



Agrupamos 10 búhos de cinco en cinco.
¿Cuántos grupos podemos hacer?

10:5= ☐ Podemos hacer_____grupos

Tenemos 28 caramelos y lo repartimos en bolsas de cuatro caramelos.

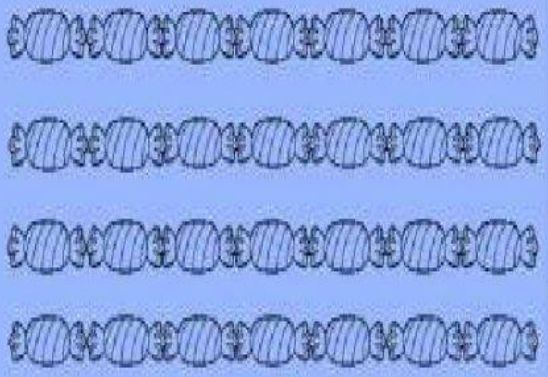

¿Cuántas bolsas podemos hacer?

28:4= ☐

Podemos hacer_____. bolsas

LIVEWORKSHEETS