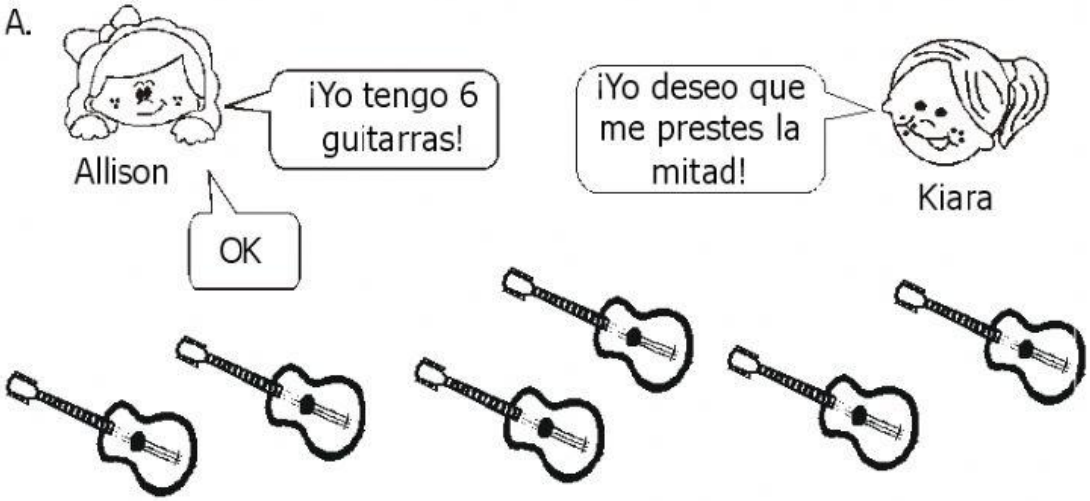Mitad y Tercia

¡Encuentra la mitad, tú puedes!

* Realiza las actividades que te indican.

A.



Kiara recibió _____ guitarras.

B.




A Bruno le regalaron _____ conejitos.

LIVEWORKSHEETS

¡Yo tengo la tercera parte!
¿Y tú?

a)





☺ ¿Cuántas flores recibió Ana? _____

b)





☺ Total de estrellas: _____

☺ La tercera parte de 12 es _____

LIVEWORKSHEETS


Seguimos repartiendo

1. Reparte 6  entre 3 niñas.



6 : 3 = ☐

2. Reparte 21  entre 3 niños.





◯ : ◯ = ◯

LIVEWORKSHEETS