LIVEWORKSHEETS

Tugas matematika
Rabu, 27 Oktober 2021

Nama/nomor: Kelas:

Pilihlah gambar bangun ruang yang sesuai, dengan cara klik pada pilihan gambarnya.

Pilihlah gambar yang berbentuk balok



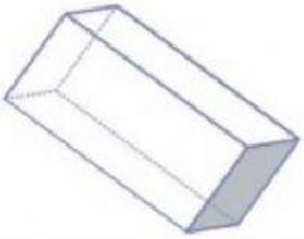

Pilihlah gambar yang berbentuk kubus



Pilihlah gambar yang berbentuk bola



Pilihlah gambar yang berbentuk tabung



LIVEWORKSHEETS

A. Tuliskanlah nama dari bangun datar dan bangun ruang yang sesuai dengan gambar.



B. Pilihlah jawaban "Benar atau Salah" yang tersedia pada kotak

1. **Alas dari kubus berbentuk persegi.**
2. **Alas dari tabung berbentuk segitiga.**
3. **Bola memiliki titik sudut**

LIVEWORKSHEETS LIVEWORKSHEETS

C. Isi dengan Gambar Benda yang sama dengan Bangun Ruang Disampung!

Pindahkan Gambar Bangun Ruang Ke Dalam Kotak!

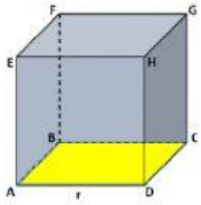

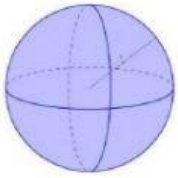

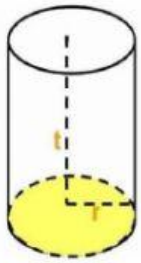



LIVEWORKSHEETS