luyện tập

1. Hàng nào có nhiều đồ chơi hơn?

A.

B.

LIVEWORKSHEETS

luyện tập

2. Chọn câu trả lời đúng.

A. Số ô tô ít hơn số máy bay.

B. Số ô tô bằng số máy bay.

C. Số ô tô nhiều hơn số máy bay.

LIVEWORKSHEETS

luyện tập

3. Số?



LIVEWORKSHEETS

luyện tập

4. Số?

a)



6	
1	
2	
3	

LIVEWORKSHEETS

luyện tập

4. Số?

b)



9	
1	
2	
3	

LIVEWORKSHEETS