5 Situa aquests nombres en la recta numèrica:



6 Troba el nombre amagat:

- Té tres xifres.
- És un nombre parell.
- La xifra de les centenes és el resultat de fer aquesta operació: 3 + 5.
- La xifra de les unitats és la meitat de la xifra de les centenes.
- La xifra de les desenes és la meitat de 2.

▸ De quin nombre es tracta? .....

7 Omple les etiquetes amb la paraula corresponent:

Costat

Angle

Vèrtex

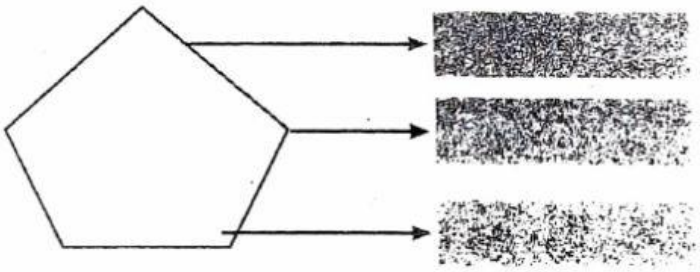

8 Relaciona cada polígon amb el seu nom:

triangle quadrilàter pentàgon hexàgon heptàgon

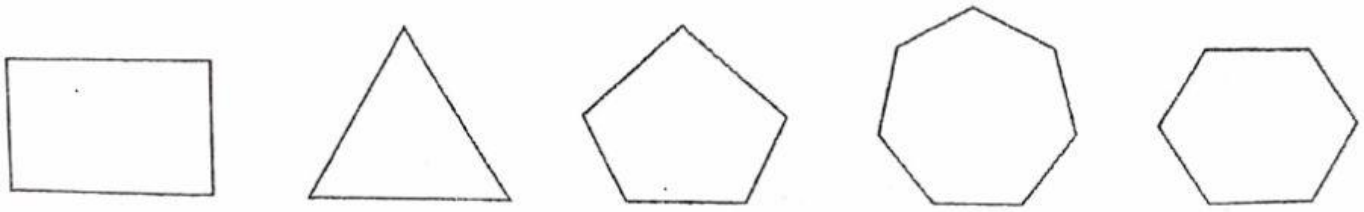

LIVEWORKSHEETS