Kertas 1

Setiap soalan diikuti oleh empat jawapan pilihan, A, B, C dan D. Pilih jawapan yang betul.

UPSR KEMANDIRIAN SPESIES HAIWAN

1. Apakah yang dimaksudkan dengan kemandirian spesies haiwan?
   A Kekuatan haiwan untuk melindungi anaknya.
   B Keupayaan haiwan untuk bertelur dan melahirkan anak.
   C Keupayaan haiwan untuk mengekalkan spesiesnya.
   D Keupayaan haiwan untuk menyembunyikan dirinya.

2. Antara haiwan berikut, yang manakah akan memancutkan dakwat hitam apabila berada dalam keadaan bahaya?

A

B

C 

D

3. Rajah 1 menunjukkan sejenis haiwan.



Rajah 1

Bagaimanakah haiwan ini mengekalkan kemandirian spesiesnya?
   A Mempunyai bisa
   B Mempunyai tanduk
   C Hidup berkumpulan
   D Memutuskan anggota badan

4. Antara haiwan berikut, yang manakah dipadankan dengan ciri dan tingkah laku khas yang betul?

	Haiwan	Ciri dan tingkah laku khas
A	Kerbau	Berkuku tajam
B	Landak	Mempunyai duri tajam
C	Ulat gonggok	Memutuskan anggota badan
D	Lipas	Mempunyai sengat yang berbisa

5. Rajah 2 menunjukkan seekor haiwan.



Rajah 2

Bagaimanakah haiwan ini melindung diri daripada musuh?
   A Menggulungkan badannya
   B Memutuskan anggota badan
   C Mengeluarkan racun berbisa
   D Memancutkan dakwat hitam

6. Apakah tingkah laku khas burung bangau untuk menyesuaikan diri dengan cuaca sejuk yang melampau?
   A Bermigrasi
   B Berhibernasi
   C Berendam di dalam lumpur
   D Makan dengan banyak sebelum tiba musim sejuk

LIVEWORKSHEETS

7. Apakah haiwan yang memutuskan anggota badannya untuk melindungi diri daripada musuh?

A



B

C



D



8. Rajah 3 menunjukkan sekumpulan kerbau sedang berendam di dalam lumpur.

Rajah 3

Apakah tujuan tingkah laku ini dilakukan?

A Untuk mengawal suhu badan
B Untuk menyejukkan badannya
C Untuk membersihkan badannya
D Untuk mengurangkan rasa lapar

9. Rajah 4 menunjukkan seekor haiwan.

Rajah 4

Bagaimanakah haiwan ini menjaga dan melindungi anak-anaknya?

A Menyusukan anaknya
B Membina sarang untuk anaknya
C Membawa anaknya di dalam mulut
D Menyembunyikan anaknya di dalam jerumun

10. Apakah cara yang dilakukan oleh kanggaru untuk menjaga anaknya?

A Membina sarang untuk anaknya
B Membawa anaknya di dalam mulut
C Membawa anaknya di dalam kantung
D Menyembunyikan anaknya di dalam hutan

UPSR HUBUNGAN MAKANAN ANTARA HIDUPAN

11. Rajah 5 menunjukkan satu siratan makanan di sawah padi.

KLON UPSR 2018

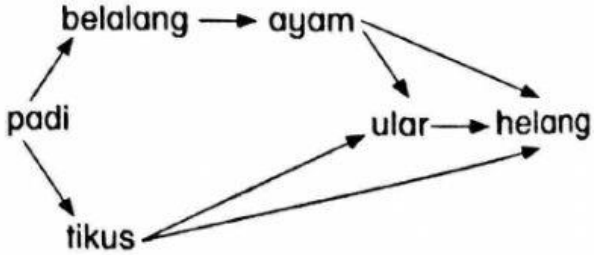

Rajah 5

Apakah yang akan berlaku pada bilangan belalang dan helang jika bilangan ayam berkurang dengan banyak?

	Belalang	Helang
A	Bertambah	Bertambah
B	Bertambah	Berkurang
C	Berkurang	Berkurang
D	Berkurang	Bertambah

LIVEWORKSHEETS