TRANSFORMACIONES

1.- Une con una línea cada concepto con su ejemplo.

TRASLACIÓN
ROTACIÓN
REFLEXIÓN

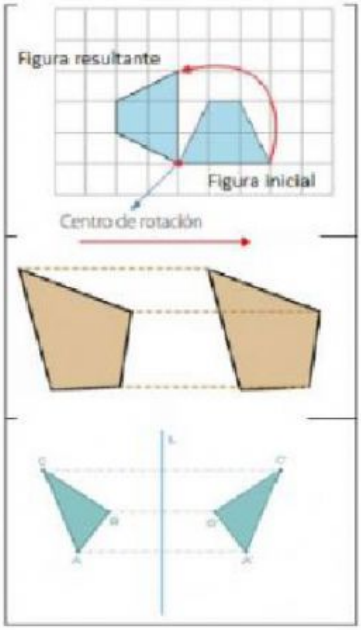

2.- Escribe V si es verdadero o F si es falso en las siguientes afirmaciones.

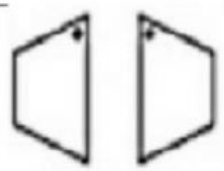	b) 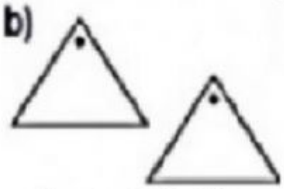	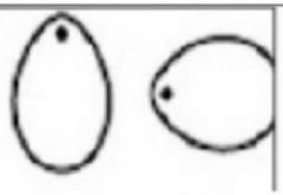
Es una reflexión	Es una rotación	Es una rotación

3. ¿Cuál de las siguientes figuras giró UN CUARTO DE VUELTA HACIA LA DERECHA?

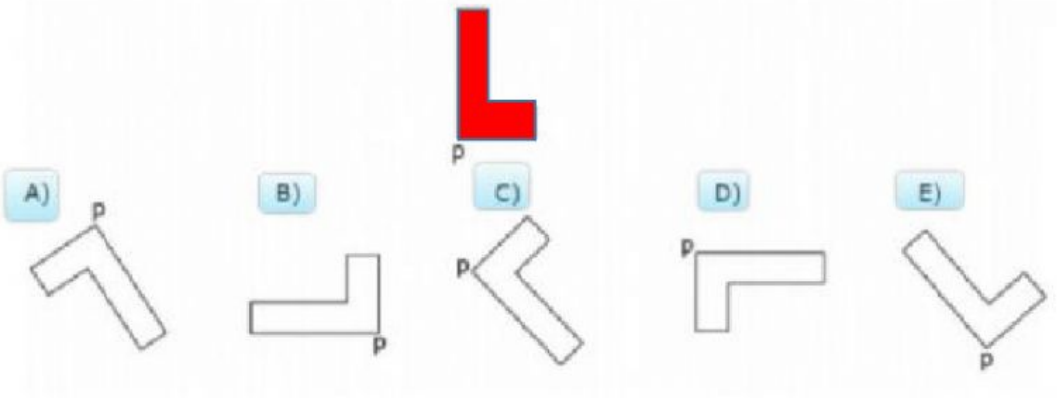

4.- ¿Cuántos cuadros avanza para quedar en la posición final del triángulo ABC?

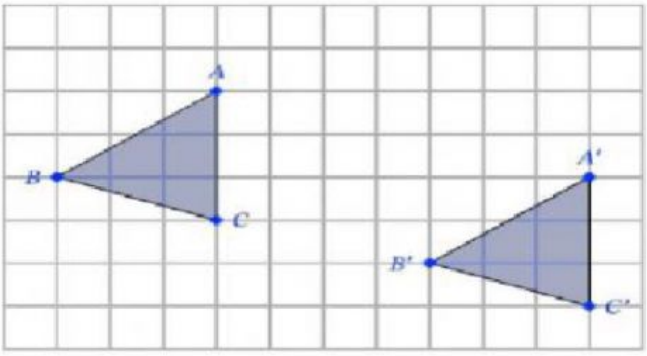

A

4 hacia la derecha y
3 hacia abajo

B

6 hacia la derecha
y 2 hacia arriba

C

7 hacia la derecha y
2 hacia abajo

5. Unir el concepto con la figura correspondiente.

		

TRASLACIÓN **REFLEXIÓN** **ROTACIÓN**