Colegio **Buonarroti**

Educación Básica - Bachillerato Unificado

Tema: Evaluación espejo 1r bloque Matemática

NOMBRE: _____

FECHA: _____

1. **Escribe la fracción que representa cada figura.**

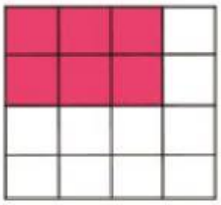

_____

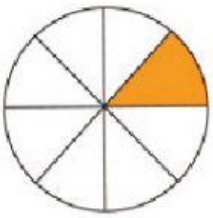

_____

_____

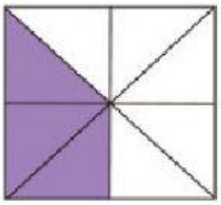

_____

2. **Relaciona cada fracción con su lectura.**

$\frac{2}{3}$ •	• TRES CUARTOS
$\frac{1}{2}$ •	• DOS TERCIOS
$\frac{3}{4}$ •	• UN MEDIO
$\frac{4}{5}$ •	• SEIS DÉCIMOS
$\frac{7}{9}$ •	• CUATRO QUINTOS
$\frac{6}{10}$ •	• SIETE NOVENOS

LIVEWORKSHEETS

3. **Escribe la fracción que corresponde al punto señalado en cada semirrecta.**

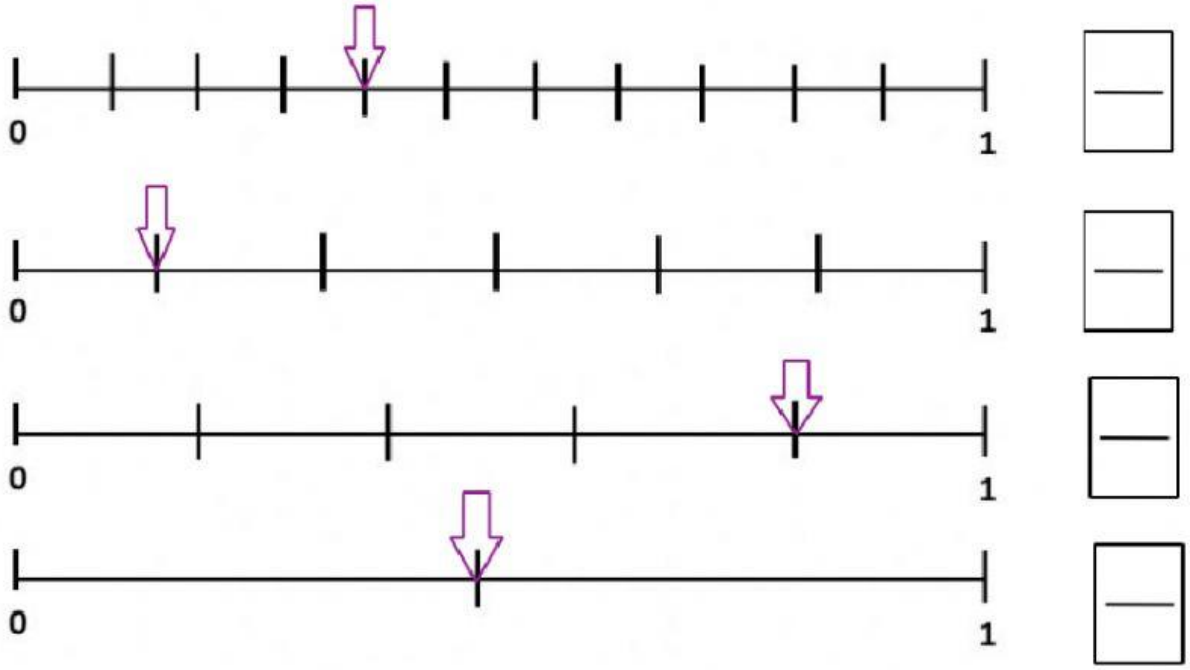

4. **Escribe V de verdadero o F de falso según la lectura de los números decimales.**

Número decimal	Lectura	V o F
46,736	**46 unidades y 736 centésimos**	
0,05	**5 centésimos**	
1,3	**1 unidad y 3 décimos**	

LIVEWORKSHEETS

5. Ubica y resuleve las siguientes operaciones.

34,5+4,5

+

4,3+7

+

3,45-2

-

6,45-4,5

-

LIVEWORKSHEETS