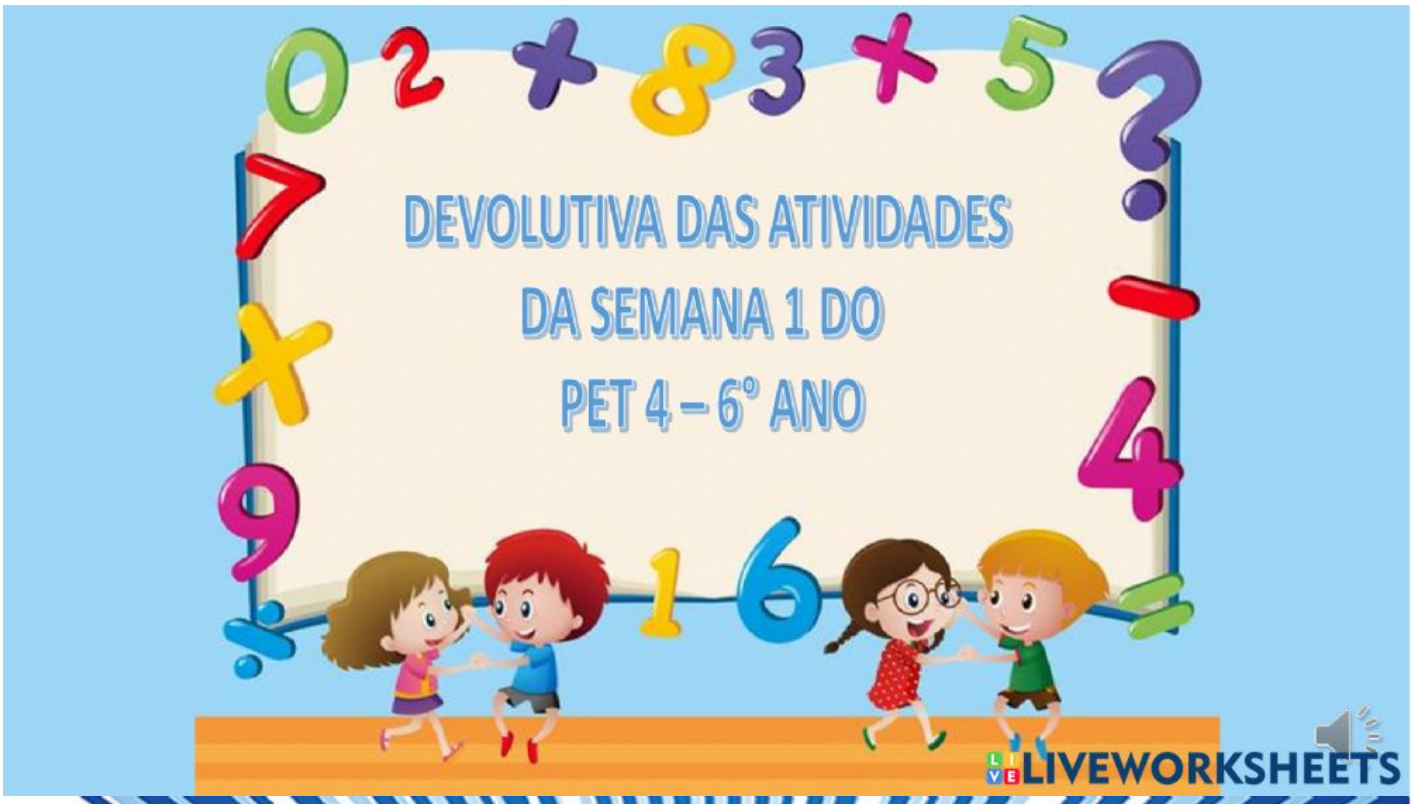

LIVEWORKSHEETS

QUESTÃO 1 - Numere corretamente:

(1) metro (___) múltiplo do metro mais usado.

(2) quilômetro (___) usados para medir grandes extensões.

(3) centímetro (___) unidade fundamental de medida de comprimento.

(4) múltiplos do metro (___) usados para medir pequenas extensões.

(5) Submúltiplos do metro (___) submúltiplo do metro mais usado.

QUESTÃO 2 - Escreva por extenso os valores a seguir:

a) 8,2 dam =

b) 0,75 m =

c) 2,345 m =

LIVEWORKSHEETS

QUESTÃO 3 - Transforme para a unidade indicada:

a) 43,4 dam para cm = _____ cm

b) 0,062 hm para m = _____ m

c) 9,234 km para dam = _____ dam

d) 41,96 m para mm = _____ mm

e) 235,3 cm para hm = _____ hm

f) 0,75 m para dam = _____ dam

g) 576,2 dm para dam = _____ dam

h) 7,43 mm para cm = _____ cm

LIVEWORKSHEETS

QUESTÃO 4 - (CESGRANRIO/ADAPTADA) No modelo abaixo, tem-se a representação de uma avenida na qual há um mercado, uma agência bancária, uma farmácia e uma agência dos correios. A distância entre o mercado e a agência dos correios é de 1,5 km.

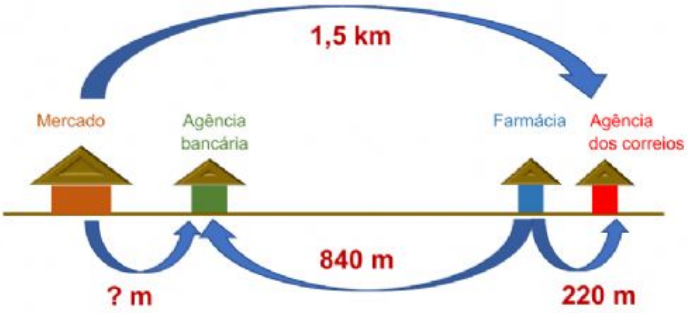

A farmácia está a 840 m da agência bancária e a 220 m da agência dos correios. Qual é, em metros, a distância entre o mercado e a agência bancária?

A distância entre o mercado e a agência bancária é de _____ m.

LIVEWORKSHEETS

QUESTÃO 5 - Anice sempre gostou de resolver problemas envolvendo sistema métrico decimal. Ela sabe que o perímetro de um determinado triângulo é 0,187 m e dois de seus lados tem 0,51 dm e 92 mm; logo, determine a medida do terceiro lado, em centímetros.

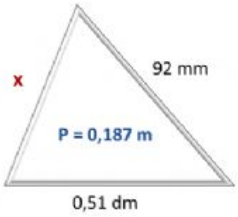

O terceiro lado do triângulo mede _____ **cm**

LIVEWORKSHEETS