1er. Examen de Matemáticas

5º. C

Completa las fracciones

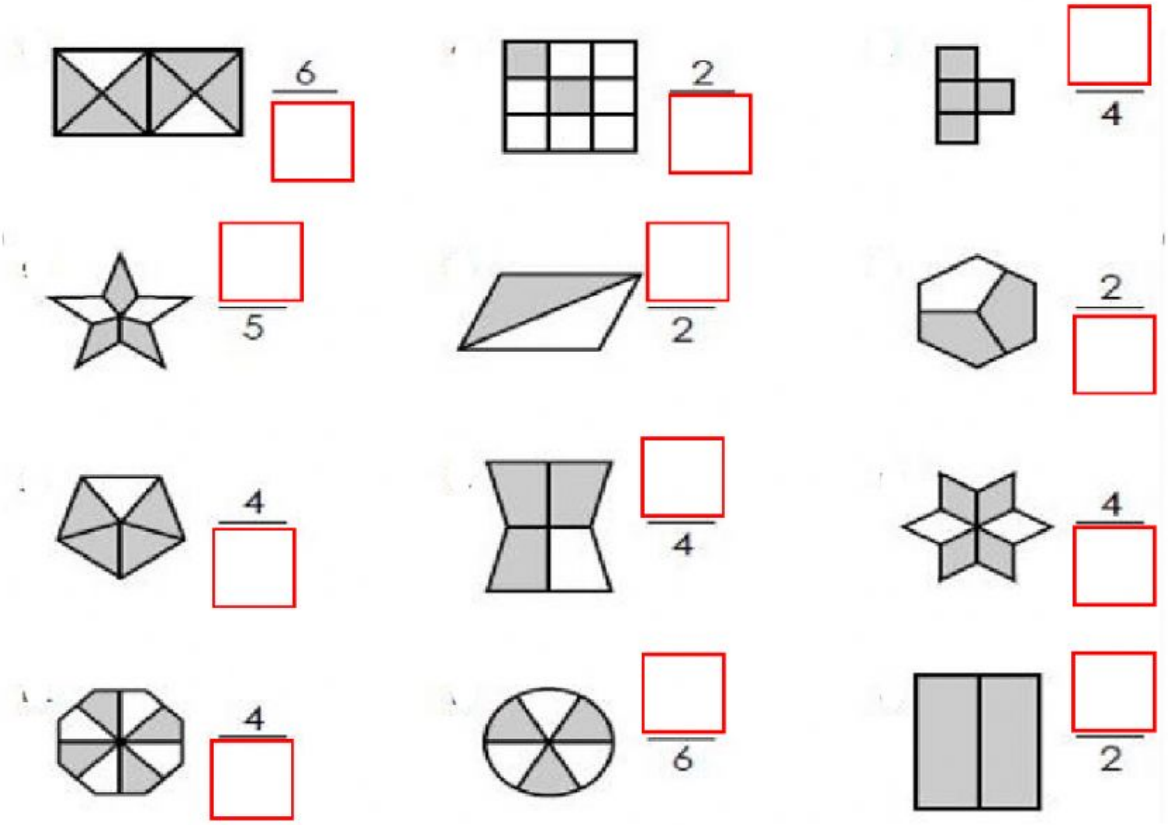

Resuelve las fracciones

LIVEWORKSHEETS

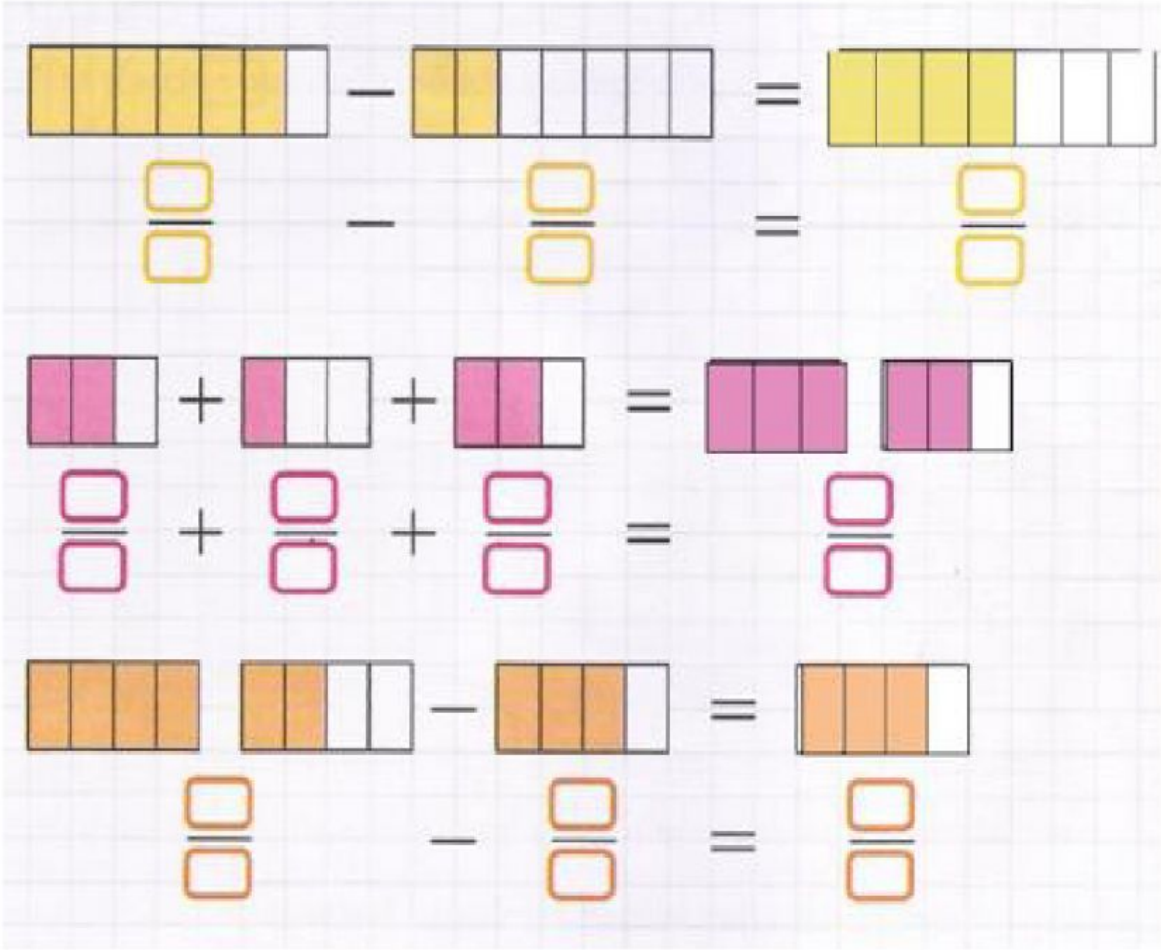

Compara las fracciones y coloca los signos > = <

LIVEWORKSHEETS

$\frac{1}{5}$ ☐ $\frac{2}{4}$

$\frac{2}{7}$ ☐ $\frac{2}{8}$

$\frac{1}{8}$ ☐ $\frac{1}{6}$

$\frac{1}{2}$ ☐ $\frac{3}{4}$

$\frac{4}{2}$ ☐ $\frac{2}{2}$

$\frac{8}{5}$ ☐ $\frac{8}{4}$

Completa las fracciones mixtas

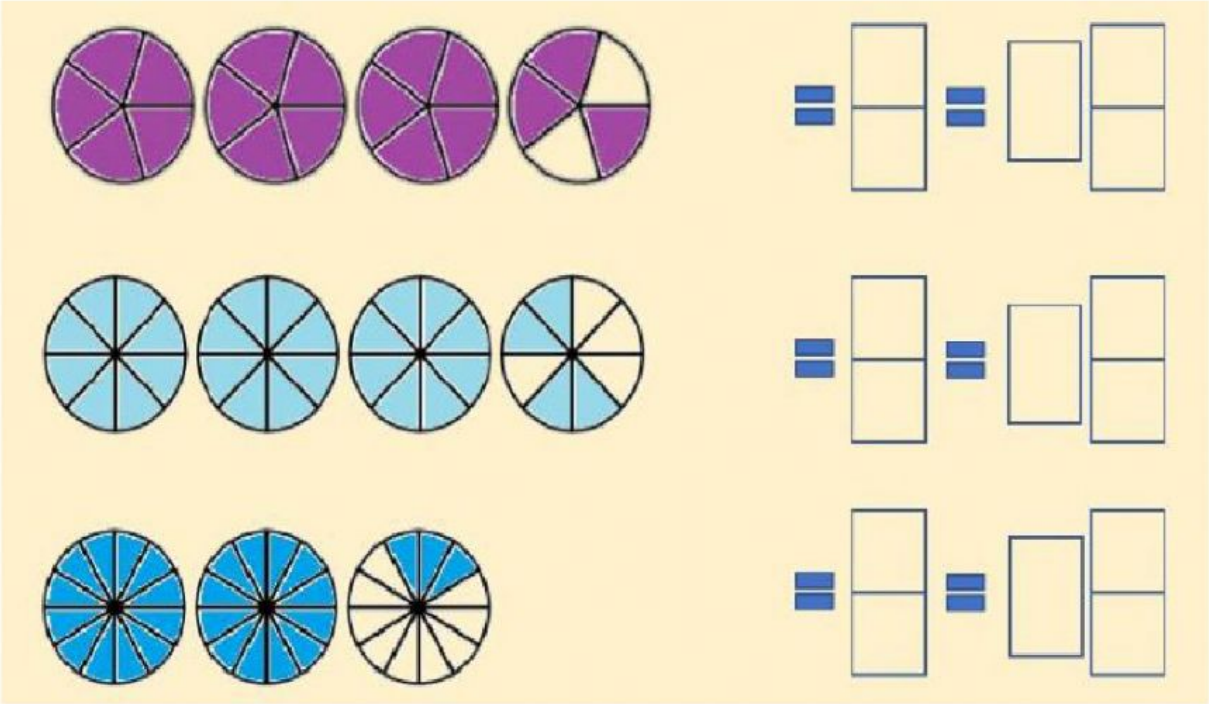

Resuelve los problemas

LIVEWORKSHEETS

a) Rosita compró en el supermercado $\frac{1}{4}$ kg de un queso y luego otra cantidad igual del mismo queso. ¿Qué fracción de un kilogramo de queso compró Rosita?



Rosita compró..... kg de queso.

b) Carlitos dividió una pizza en 8 partes iguales. Cada trozo de la pizza

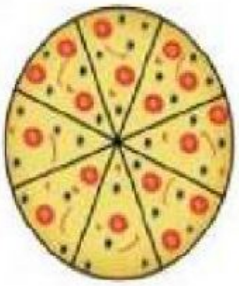

Carlos se comió $\frac{3}{8}$ de pizza.

De la pizza sobró ..... de pizza.

c) Sara compró un chocolate que estaba dividido en 12 partes iguales.

Dio 3 trocitos a su hermana,

Dio 4 trocitos a su mamá,

Se comió 2 trocitos y

Dejó..... del chocolate para el otro día.

LIVEWORKSHEETS