AMERICAN STUDY CENTER
SCHOOL
EXAMEN MENSUAL DE MATEMÁTICAS 8vo Grado. A

Nombre:_____ Fecha:_____

I- Determina el valor de x de acuerdo con las medidas que se indican en la figura.

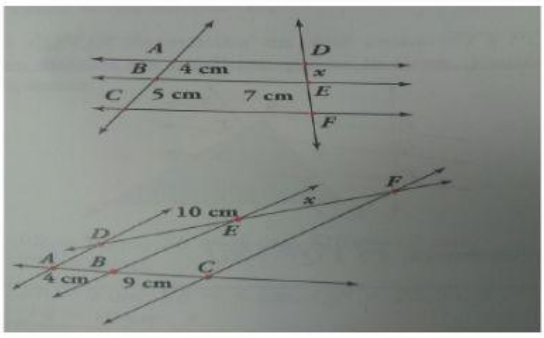

II- Calcula el ancho de un río a partir del esquema que se muestra en la figura.



III- Calcula la altura a la que se encuentra el ave si Juan ve su reflejo como se muestra en la figura.


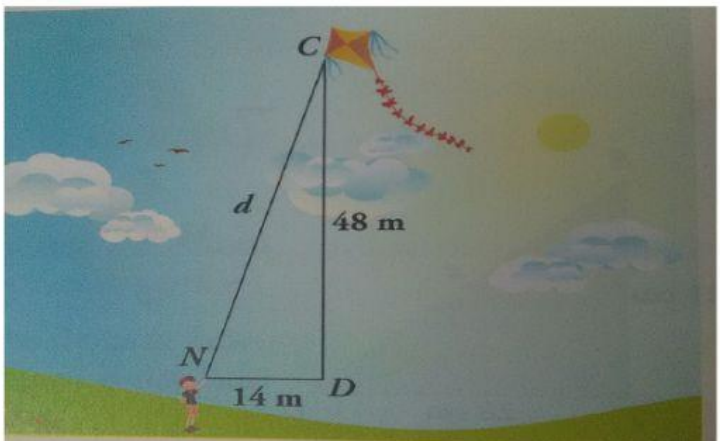
IV- Calcular la distancia d del niño a la cometa.