COLEGIO LA ASUNCIÓN LEÓN

Nombre: N°

Fecha: 4to grado:

1. Une con una línea la representación gráfica con el número mixto.

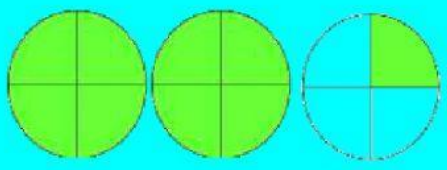

$4\frac{1}{2}$



$4\frac{2}{3}$

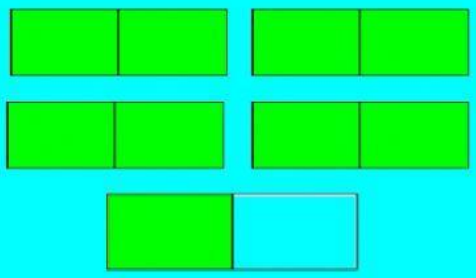

$2\frac{1}{4}$

Recuerda el procedimiento para convertir fracción mixta a impropia.

2. Convierte de fracción de mixta a propia.

$2\frac{1}{4} = \frac{\quad}{\quad}$

$5\frac{3}{7} = \frac{\quad}{\quad}$

LIVEWORKSHEETS

$8\frac{1}{3} = \frac{\quad}{\quad}$

$9\frac{5}{6} = \frac{\quad}{\quad}$

$9\frac{1}{3} = \frac{\quad}{\quad}$

$7\frac{1}{12} = \frac{\quad}{\quad}$

$9\frac{7}{10} = \frac{\quad}{\quad}$

$8\frac{2}{3} = \frac{\quad}{\quad}$

3. Escojo dos fracciones mixta, dos impropia y la escribo en letra, recuerdo iniciar con mayúscula y finalizar con un punto.

LIVEWORKSHEETS