PHIẾU BÀI TẬP MÔN TOÁN LỚP 1

Mã: 1701

Ngày ..... tháng ..... năm .....

Họ và tên: ..... Lớp: .....

Nhận xét của giáo viên: .....

Bài 1. Nối các đồ vật có cùng hình dạng.



Bài 2. Có bao nhiêu hình tam giác?.....

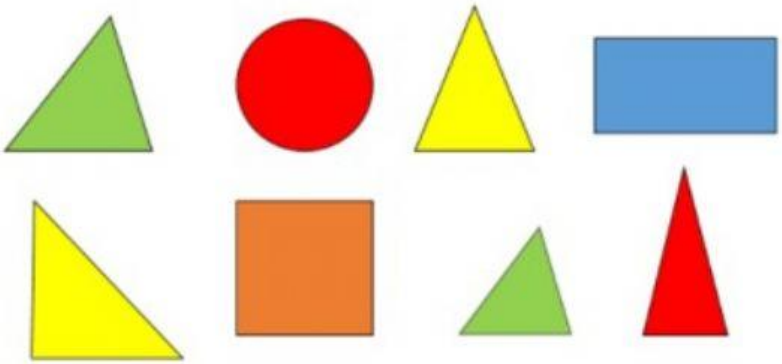

Bài 3. Chọn hình điền vào dấu ?

a.

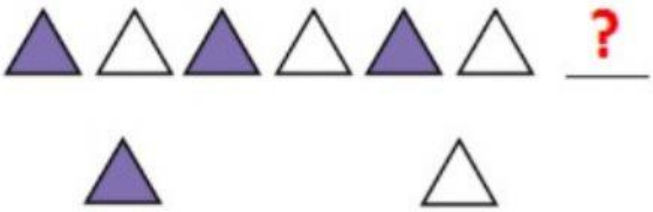

b.



LIVEWORKSHEETS