Tema: Diagrama de barras

Actividad 1: Observa la representación en el diagrama de barras y marca con una X las respuestas correctas.

Este gráfico representa los minutos que dedican tres amigos a jugar con la tablet y ver la televisión el sábado.

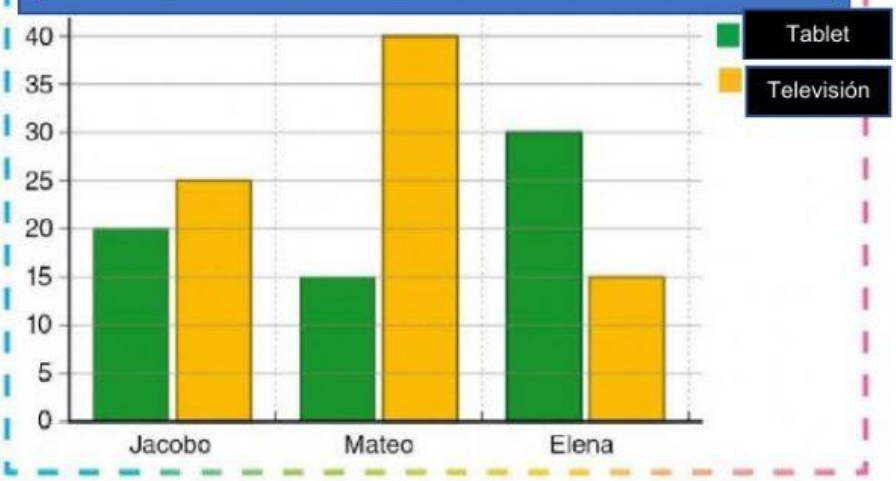

1.¿Cómo se llama el niño que ha visto por más tiempo televisión?

- Jacobo
- Mateo
- Elena

2.¿Cuántos minutos ha jugado Jacobo con la tablet?

- 15 min
- 25 min
- 20 min

3.¿Qué prefiere Elena, la televisión o la tablet?

- televisión
- tablet

LIVEWORKSHEETS

Actividad 2: Lee y arrastra las barras para que se complete el gráfico de barras con los datos de la tabla.

En la tabla se recoge el número de niños y niñas que han utilizado la impresora 3 D durante la semana de demostración.

	Lunes	Martes	Miércoles	Jueves	Viernes
Niños	10	15	35	15	20
Niñas	5	15	20	25	35

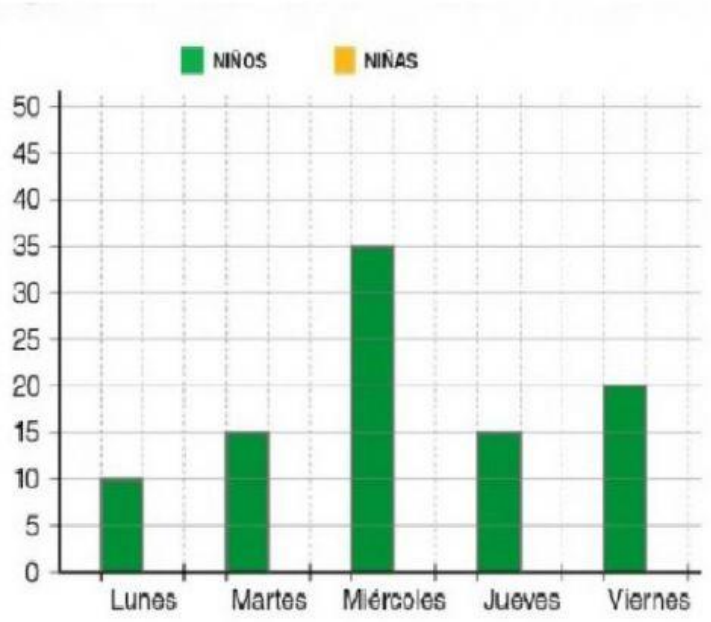

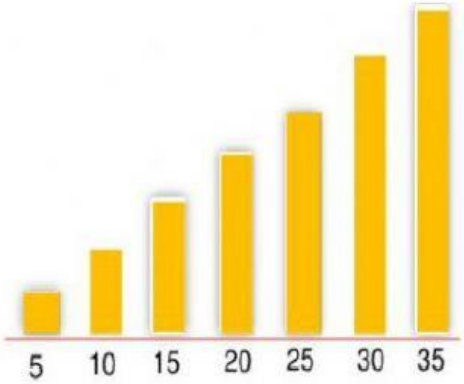

Actividad 3: Actividade de habilidad mental (1 punto)

Escribe el número que continua teniendo en cuenta el patrón numérico.

LIVEWORKSHEETS

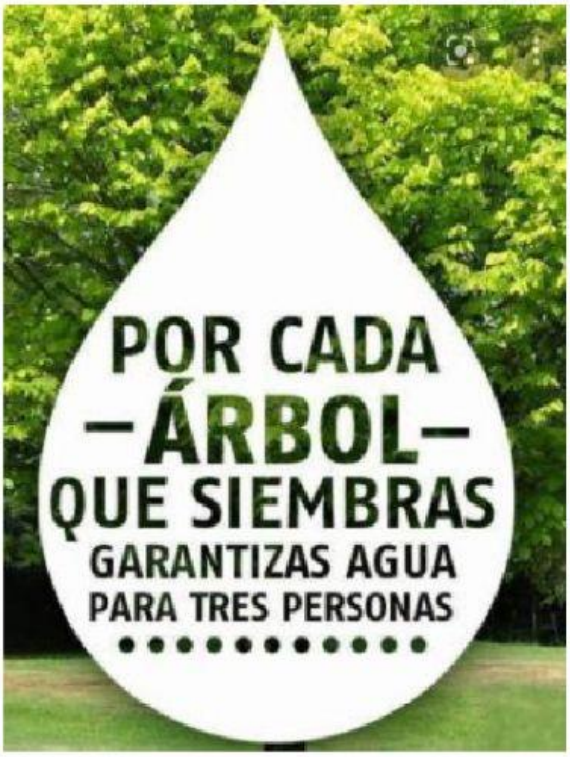

LIVEWORKSHEETS