LKPD 2

ORGAN SISTEM PENCERNAAN MANUSIA

Isilah identitasmu dengan benar sebelum mengerjakan tugas berikut !

NAMA _____ KELAS _____ No. Absen _____

KOMPETENSI DASAR

3.5 Menganalisis sistem pencernaan pada manusia dan memahami gangguan yang berhubungan dengan sistem pencernaan, serta upaya menjaga kesehatan sistem pencernaan

4.5 Menyajikan hasil penyelidikan tentang pencernaan mekanis dan kimiawi

INDIKATOR PENCAPAIAN KOMPETENSI

1. Mengidentifikasi organ – organ sistem pencernaan manusia.
2. Menjelaskan fungsi organ – organ sistem pencernaan manusia
3. Menganalisis keterkaitan organ sistem pencernaan dengan enzim yang dihasilkan.

TUJUAN PEMBELAJARAN

Melalui pembelajaran blended learning dengan model discovery learning diharapkan peserta didik dapat :

1. Mengidentikasi organ – organ sistem pencernaan manusia dengan benar
2. Menjelaskan fungsi organ – organ sistem pencernaan manusia dengan baik
3. Menganalisis keterkaitan organ sistem pencernaan dengan enzim yang dihasilkan.

LIVEWORKSHEETS

KEGIATAN 1 :

1. Amatilah gambar organ-organ pencernaan di bawah ini!
2. Identifikasikan bagian organ pencernaan sesuai dengan gambar gambar organ pencernaan denga terlebih dulu membaca sumber literasi dari buku siswa semester 1 kelas VIII, buku sumber lain yang relevan dan dari internet.
3. Pasangkan gambar bagian organ pencernaan pada kotak yang disediakan dengan menarik dan melepaskan pada bagian yang sesuai.

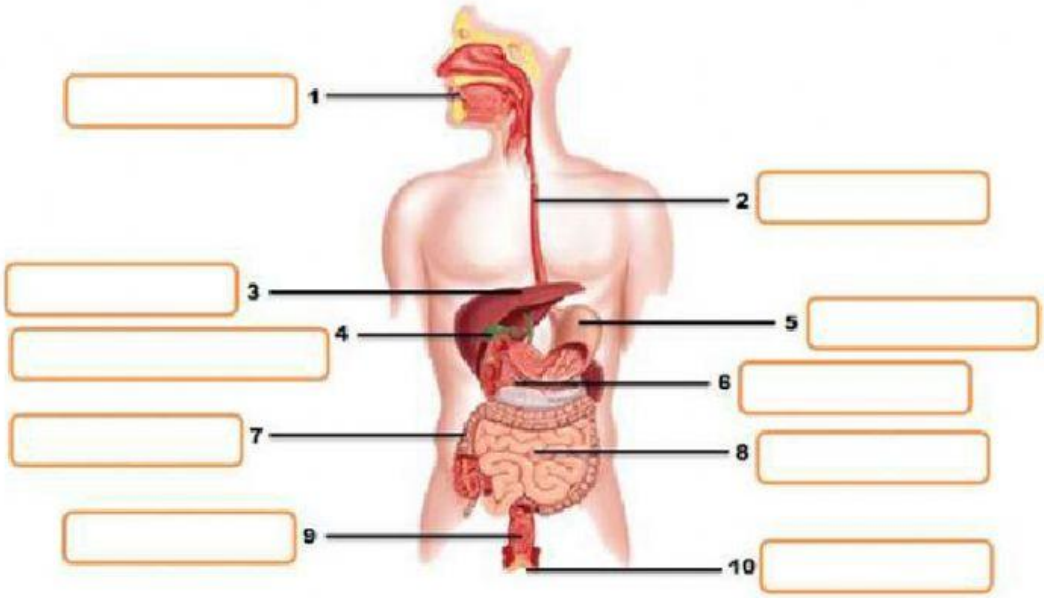

LAMBUNG	ANUS	HATI	KANTUNG EMPEDU
MULUT	ESOFAGUS	USUS HALUS	
REKTUM	USUS BESAR	PANKREAS	

LIVEWORKSHEETS

KEGIATAN 2 :

Identifikasi fungsi organ – organ pencernaan dan isikan pada tabel yang telah tersedia.

Organ Pencernaan	Fungsinya
Mulut	
Kerongkongan (Esofagus)	
Lambung	
Hati	
Pankreas	
Kantung Empedu	
Usus Halus	
Usus Besar	
Rektum	
Anus	

LIVEWORKSHEETS

Analisis enzim yang dihasilkan organ pencernaan dan fungsinya !

Organ Pencernaan	Enzim yang dihasilkan	Fungsi
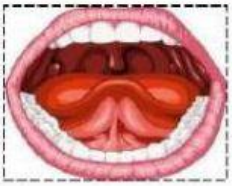		
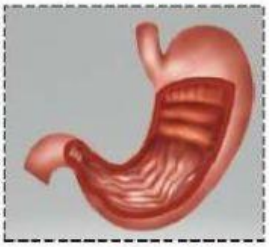		
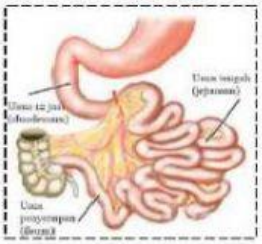		

Tuliskan rangkaian jalannya pencernaan makanan pada sistem pencernaan makanan di bawah ini :

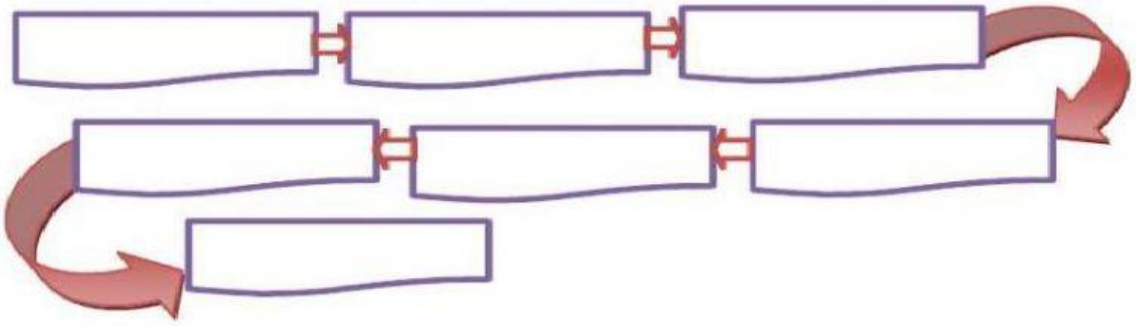

LIVEWORKSHEETS