ZIRKUNFERENTZIA ETA ZIRKULUA

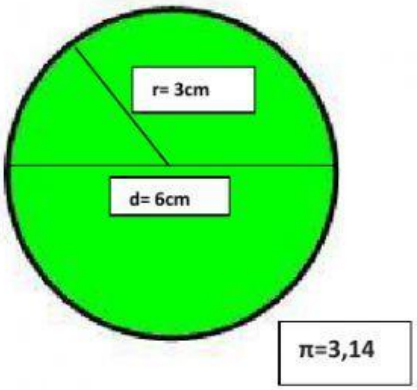

PERIMETROA = 2 x π x R = 2 x 3,14 x 3 = 18,84 cm

AZALERA = π x r ² = 3, 14 x 3² = 28,26 cm²

1. **Kalkulatu honako irudi hauen azalera eta perimetroa:**

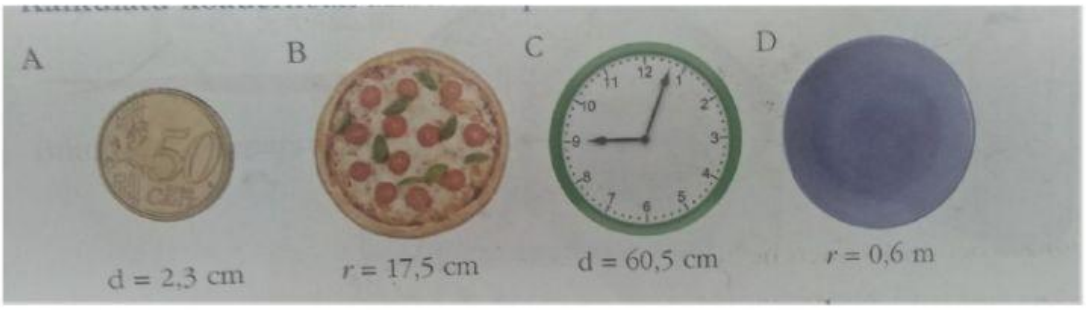

A) P=
A=

B) P=
A=

C) P=
A=

D) P=
A=

2. **Plaza zirkular jakin batek 20 m-ko erradioa du. Zer azalera du plaza horrek?**

Azalera =

LIVEWORKSHEETS

3. **360ball deritzon kirol berria dago; kirol hori 9,2m-ko diametroko pista zirkularrean praktikatzen da eta jokalariek erraketak erabiltzen dituzte pilotak 2,7 m-ko diametroko disko zentralean jo dezan.**

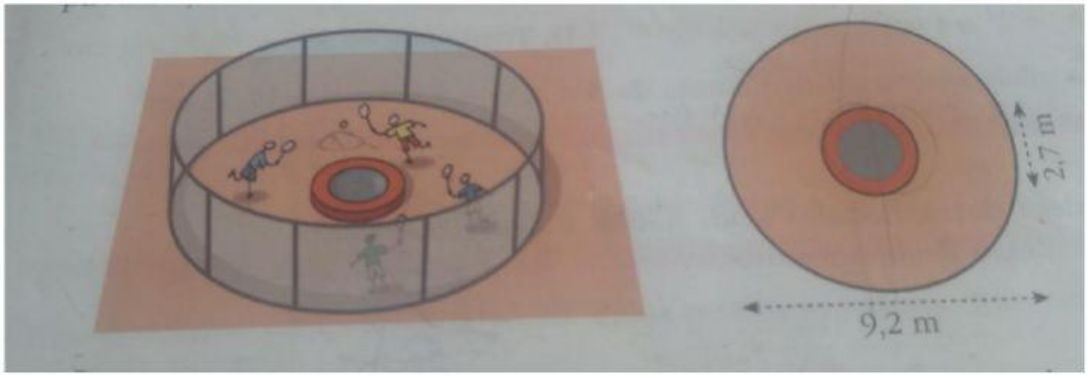

a) **Kalkulatu zer perímetro duen hesiak eta zer azalera duen pistak.**

- Perimetroa =
- Azalera =

b) **Zer azalera dute jokalariek mugitzeko, zirkulu zentrala zapaldu gabe?**

- Azalera =

LIVEWORKSHEETS