TALLER DE MATEMÁTICA

TERCERO BGU

1. **Seleccione cuál de las siguientes gráficas representan funciones colocando un si o un no.**

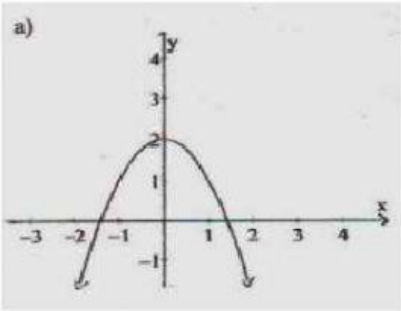

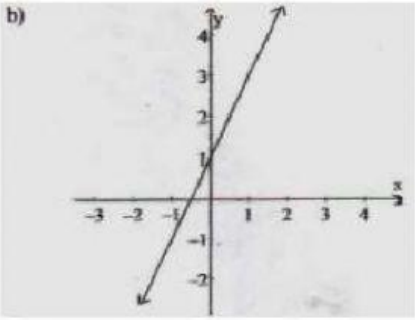

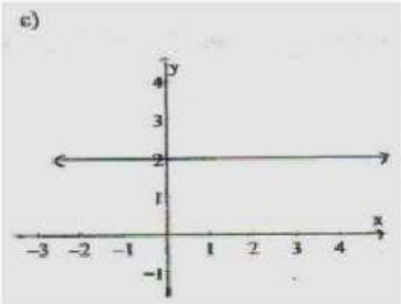

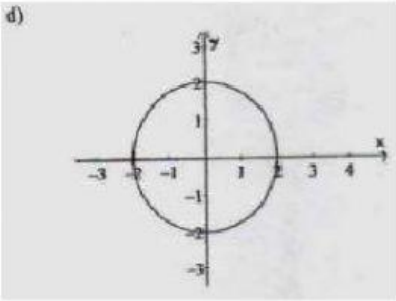

2. **De la siguiente gráfica, calcular lo pedido:**

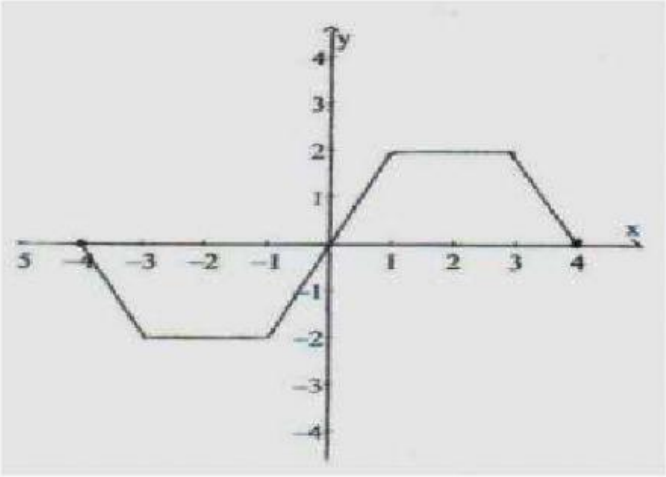

El dominio es desde hasta .

El recorrido es desde hasta .

Es creciente desde hasta .

Cuando la función es constante tiene valores de "y" igual a y .

El valor de x= -2, la variable "y" es

LIVEWORKSHEETS

3. En las funciones $f(x) = 3x - 2, g(x) = \frac{1}{x-1}$. Unir según corresponda con las operaciones

f+g(x)	$\frac{3x^2 - 5x + 1}{x - 1}$
f-g(x)	3x-2
f.g(x)	$\frac{3(x-1)+1}{x-1}$
f/g (x)	$\frac{3x-2}{x-1}$

LIVEWORKSHEETS