LAS HORAS

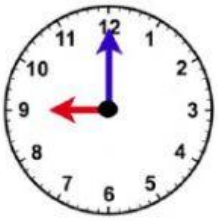

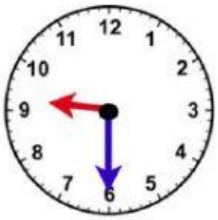

↑ Horas

↑ Minutos



Las 9 en punto

Las 9 y media

Completa las horas en los siguientes relojes digitales:

:

Las 8 y media.

:

Las 2 en punto.

:

Las 6 en punto.

:

La una y media.

Completa las horas en los siguientes relojes analógicos:

Son las

Son las

LIVEWORKSHEETS

Problemas de la vida cotidiana

1. Pedro y Ana van a ir al cine a las 5 en punto. Si la película dura 2 horas, ¿a qué hora saldrán del cine?

Comienza

Saldrán del cine

Solución:_____

2. Los alumnos de 1º comienzan el patio a las 11 en punto. Si el patio dura media hora, ¿a qué hora termina el patio?

Comienza el patio

Termina el patio

Solución:_____

3. Juan se despierta a las 8 y media para ir al colegio. Si tarda media hora en llegar, ¿a qué hora llega al colegio?

LIVEWORKSHEETS

Se despierta

Llega al colegio

Solución:_____

4. La asignatura de matemáticas comienza a las 10 en punto. Si la clase dura 1 hora, ¿a qué hora termina matemáticas?

Comienza

Termina

Solución:_____

5. Pablo sale al patio del colegio a las 11 y media. Entra a clase media hora después. Completa estos relojes digitales.

La hora a la que sale al patio.

La hora a la que entra a clase.

6. Juan quiere ir al cine a ver una película que dura dos horas. Si la película comienza a las 6 en punto, ¿a qué hora saldrá del cine?

LIVEWORKSHEETS

Comienza

Saldrán del cine

Solución:_____

_

LIVEWORKSHEETS