학교마크

단원별 성취도 평가[기본형] ①

3. 소수의 덧셈과 뺄셈

학교

학년 반 번

이름

01 소수 둘째 자리 숫자는 무엇인가요?

65.027

( )

02 ㉠이 나타내는 수는 ㉡이 나타내는 수의 몇 배일까요?

45.035
㉠ ㉡

( )배

03 □ 안에 알맞은 수를 써넣으세요.

$0.9+0.\square=1.6$

04 □ 안에 알맞은 수를 써넣으세요.

0.5 → 0.1이 □개
+ 0.8 → 0.1이 □개
0.1이 □개

⇨

$$\begin{array}{r} 0.5 \\ +\ 0.8 \\ \hline \square \end{array}$$

05 ○ 안에 >, =, <를 알맞게 써넣으세요.

0.8 ○ 0.72

06 빈칸에 알맞은 수를 써넣으세요.

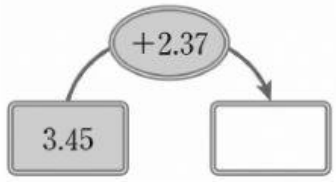

07 계산해 보세요.

$$\begin{array}{r} 0.85 \\ -\ 0.27 \\ \hline \square \end{array}$$

08 □ 안에 알맞은 소수를 써넣으세요.

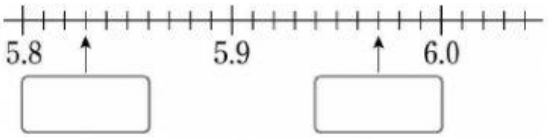

09 □ 안에 알맞은 소수를 써넣으세요.

- 1이 13개, 0.1이 8개, 0.001이 4개인 수는 □입니다.
- 1이 5개, $\frac{1}{100}$이 2개, $\frac{1}{1000}$이 7개인 수는 □입니다.

10 보기에서 나타내는 소수는 어느 것인가요?

( )

보기

0.51보다 0.78 큰 수

① 0.17 ② 1.17
③ 1.19 ④ 1.27
⑤ 1.29

LIVEWORKSHEETS

11 1이 3개, 0.01이 6개, 0.001이 2개인 수를 소수로 나타내어 보세요.

( )

12 생략할 수 있는 0을 찾아 생략하여 나타내어 보세요.

(1) 0.080 ⇨ ( )

(2) 10.70 ⇨ ( )

13 더 큰 수를 찾아 기호를 써보세요.

㉠ 529의 $\frac{1}{100}$인 수

㉡ 5.29의 10배인 수

( )

14 보기에 나타내는 소수를 구해 보세요.

보기

8.4보다 3.75 작은 수

( )

15 가장 큰 수와 가장 작은 수의 차를 구해 보세요.

2.34, 0.95, 1.08, 2.5, 1.49

( )

16 빈칸에 알맞은 수를 써넣으세요.

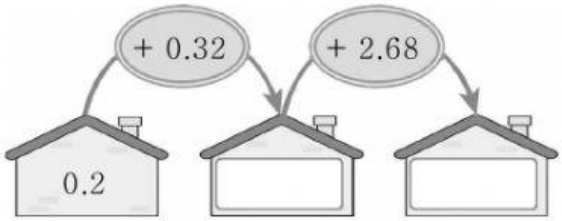

17 0부터 9까지의 숫자 중 □ 안에 들어갈 수 있는 숫자를 모두 써보세요.

0.273 < 0.2□5

( )

18 계산해 보세요.

(1) 5.3 + 2.74 = □

(2) 12.5 − 7.82 = □

19 도영이가 오른 산의 등산 코스입니다. ㉠의 길을 따라 올라갔다가 ㉡의 길을 따라 내려왔다면, 도영이가 등산한 거리는 모두 몇 km인가요?

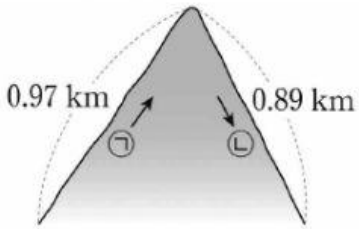

( ) km

20 □ 안에 알맞은 수를 써넣으세요.

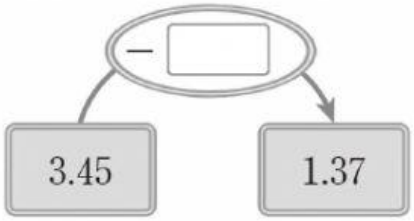

LIVEWORKSHEETS