TRƯỜNG TH TRẦN QUỐC TUẤN **Thứ ngày tháng 10 năm 2021**

MÔN: TIN HỌC

PHIẾU BÀI TẬP SỐ 3

(Hoàn thành ngày ...tháng ...năm 2021)

Họ và tên: .....

Lớp: 5.....

<u>Câu 1:</u> Trong số các công cụ dưới đây, em hãy chỉ ra công cụ dùng để chọn một vùng hình vẽ.

A. B. C. D. 

<u>Câu 2:</u> Thao tác để chọn một phần hình vẽ là:

A. Nháy chuột trên vùng cần chọn

B. Nháy đúp chuột trên vùng cần chọn

C. Kéo thả chuột bao quanh vùng cần chọn

<u>Câu 3:</u> Trong số các công cụ dưới đây, em hãy chỉ ra công cụ dùng để vẽ hình chữ nhật, hình vuông.

A. B. C.  D. 

<u>Câu 4:</u> Trong số các công cụ dưới đây, em hãy chỉ ra công cụ dùng để vẽ hình chữ nhật tròn góc.

A.  B.  C. D. 

<u>Câu 5:</u> Khi sử dụng công cụ vẽ hình e-líp, em cần thêm thao tác nào để vẽ được hình tròn?

A. Nhấn giữ phím **Shift** trong khi kéo thả chuột

B. Nhấn giữ phím **cách** trong khi kéo thả chuột

C. Nhấn giữ phím **Ctrl** trong khi kéo thả chuột

LIVEWORKSHEETS