Evaluación Conversiones

Nombre: _____

Instrucciones: De la siguiente cifra, elige la opción que corresponda al nombre de la posición de los decimales.

2.569

9	
5	
2	
6	

Instrucciones: Ubica los decimales que están marcados con las flechas y escribe su nombre correspondiente en la recta numérica.

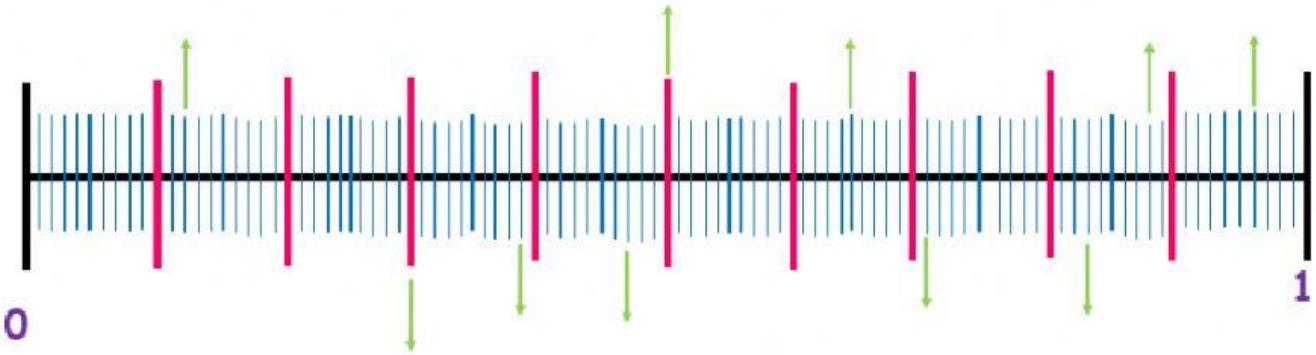

Instrucciones: Ubica las fracciones que están marcados con las flechas y escríbelas en la recta numérica.

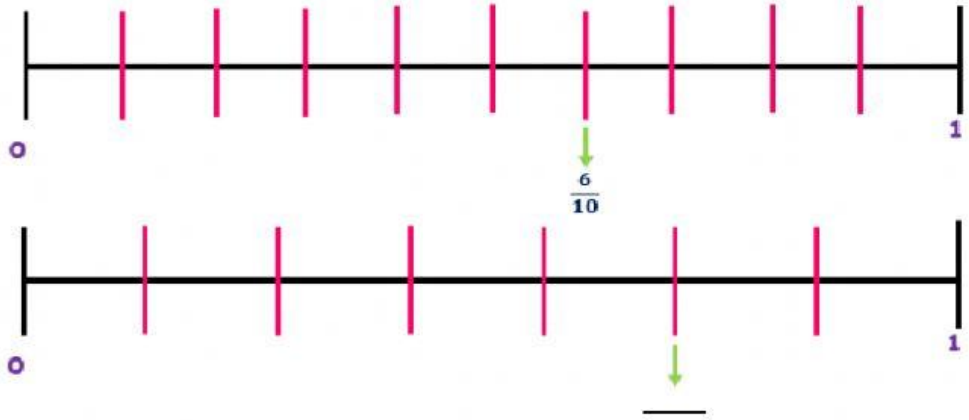

LIVEWORKSHEETS

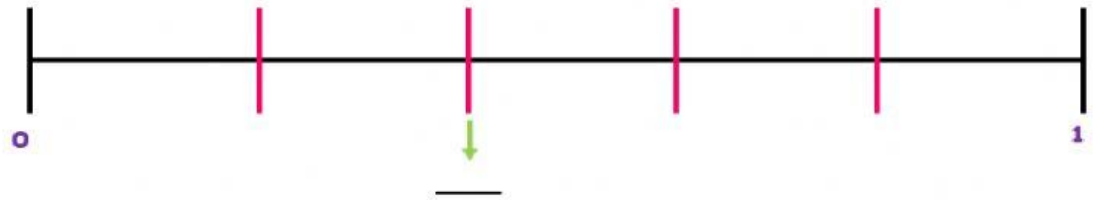

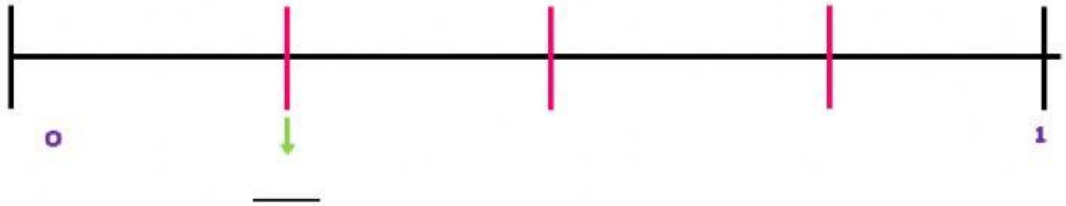

Instrucciones: Convierte los decimales a fracciones y simplifica del ejercicio 1 al 3, y del ejercicio 4 al 6conviertelas a decimal.

1. 0.25 = ____ = ____ = ____

2. 0.15 = ____ = ____

3. 0.125 = ____ = ____ = ____ = ____

4. $\frac{83}{100}$ =

5. $\frac{4}{1000}$ =

6. $\frac{18}{10}$ =

LIVEWORKSHEETS

Instrucciones: Elige una de las opciones de la derecha y arrastra la opción hacia el lugar que le corresponde.

DECIMALES

- EXACTO
- PERIÓDICO
  - PURO
  - MIXTO
- NO PERIÓDICO

0.3333 | 0.5833

0.14285 | 0.25

Instrucciones: La siguiente calificación, es la que obtuvo el alumno Israel, aproxima los decimales hasta que se obtenga el entero.

Calificación obtenida:	6.4891

Orden de Aproximación	**Truncamiento**	**Redondeo (Del 0 al 4 se queda =) del (Del 5 al 9 se le suma 1 al número subrayado)**
Milésimos		
Centésimos		
Décimos		
Unidades		

Calificación obtenida ya trunqueada y redondeada:

LIVEWORKSHEETS